आईबीपीएस आरआरबी
अधिकारी स्केल I मेंस 2018

प्रश्नपत्र

gradeup

1. भारत के प्रधान मंत्री द्वारा पहले उच्च विद्युत क्षमता वाले रेल इंजन को निम्नलिखित में से किस राज्य में हरी झंडी दिखाई गई?
A. उत्तर प्रदेश B. चेन्नई
C. बिहार D. मेघालय
E. पश्चिम बंगाल

2. 'उन्नत भारत अभियान' कार्यक्रम का ध्येय क्या है?
A. स्वैच्छिक संगठनों और सरकारी शिक्षा तंत्र तथा स्थानीय समुदायों के बीच सहयोग का प्रोन्नयन कर 100% साक्षरता प्राप्त करना |
B. उच्च शिक्षा संस्थाओं को स्थानीय समुदायों से जोड़ना जिससे समुचित प्रौधोगिकी के माध्यम से विकास की चुनौतियों का सामना किया जा सके |
C. भारत को वैज्ञानिक और प्रौद्योगिक शक्ति बनाने के लिए भारत की वैज्ञानिक अनुसंधान संस्थाओं को सशक्त करना |
D. ग्रामीण और नगरीय निर्धन व्यक्तियों के स्वास्थ्य देखभाल और शिक्षा के लिए विशेष निधियों का विनिधान कर मानव पूँजी विकसित करना और उनके लिए कौशल विकास कार्यक्रम तथा व्यावसायिक प्रशिक्षण आयोजित करना |
E. इनमें से कोई नहीं

3. भारतीय रिजर्व बैंक (आर.बी.आई) ने किस बैंक को भारत में संचालन के लिए लाइसेंस प्रदान किया है?
A. इंडस्ट्रियल एंड कॉमर्शियल बैंक ऑफ चाइना
B. इंडस्ट्रियल ट्रस्ट ऑफ चाइना
C. चाइना कंस्ट्रक्शन बैंक
D. बैंक ऑफ चाइना
E. चाइना ट्रस्ट कॉमर्शियल बैंक

4. भारत सरकार ने निम्न में से किस राज्य स्वामित्व वाले बैंक को सार्वजनिक क्षेत्र के बैंकिंग खंड में सुधार के हिस्सों के रूप में भारत का तीसरा सबसे बड़ा ऋणदाता बनाने हेतु विलय का प्रस्ताव दिया है?
A. इलाहाबाद बैंक, देना बैंक और विजया बैंक
B. इंडियन बैंक, बैंक ऑफ बड़ौदा और येस बैंक
C. येस बैंक, विजया बैंक और इलाहाबाद बैंक
D. बैंक ऑफ बड़ौदा, देना बैंक और विजया बैंक
E. देना बैंक, इलाहाबाद बैंक और येस बैंक

5. निम्नलिखित में से कौन सा दुनिया का दूसरा सबसे बड़ा मोबाइल फोन उत्पादक देश है?
A. चीन B. अमेरिका
C. जापान D. भारत
E. साउथ कोरिया

6. जून 2018 में, भारतीय रिजर्व बैंक ने बैंकों के ग्राहकों के बीच जागरूकता पैदा करने पर ध्यान केंद्रित करने के लिए वित्तीय साक्षरता सप्ताह आयोजित किया। वित्तीय साक्षरता सप्ताह का विषय क्या है?
A. 'अपने ग्राहक को जानें'
B. 'ग्राहक संरक्षण'
C. 'अपने बैंक को जानें'
D. 'सुरक्षित बैंकिंग'
E. दिए गए विकल्पों के अलावा

7. प्रधानमंत्री आवास योजना (पी.एम.ए.वाई) के तहत, मेट्रोपॉलिटन सेंटर हेतु प्राथमिकता क्षेत्र ऋण (पी.एस.एल) के अंतर्गत संशोधित आवास ऋण सीमा क्या है?
A. 30 लाख रुपये B. 40 लाख रुपये
C. 15 लाख रुपये D. 10 लाख रुपये
E. 35 लाख रुपये

8. प्रधानमंत्री फसल बीमा योजना के अंतर्गत सभी खरीफ राबी फसलों के लिए प्रीमियम राशि _____है।
A. 1.5% B. 2%
C. 2.5% D. 5%
E. 10%

9. यूके ओपन बैंकिंग निर्देशिका के साथ भुगतान आरंभिक सेवा प्रदाता (पीआईएसपी) के रूप में नामांकन करने वाला पहला बैंक कौन सा बैंक बन गया?
A. एक्ज़िम बैंक B. ड्यूश बैंक
C. स्टेट बैंक ऑफ इंडिया D. सिटी बैंक
E. बैंक ऑफ अमरीका

10. वोडाफोन इंडिया निम्नलिखित मोबाइल नेटवर्क से किसके साथ विलय करेगा?
A. ऐयरसेल B. डोकोमो
C. टेलेनोर D. आईडिया
E. इनमें से कोई नहीं

11. सुकन्या समृद्धि योजना (एस.एस.वाई) के तहत खाता खोलने के लिए आवश्यक न्यूनतम राशि क्या है?

A. 550 रुपये B. 450 रुपये
C. 750 रुपये D. 250 रुपये
E. 1000 रुपये

12. पहली बार, परंपरागत 'संगराई नृत्य' ने 2018 में औपचारिक गणतंत्र दिवस परेड में प्रदर्शन किया। संगराई नृत्य किस राज्य से जुड़ा हुआ है?
A. केरल B. त्रिपुरा
C. कर्नाटक D. पश्चिम बंगाल
E. ओडिशा

13. नई दिल्ली में 52वें स्कोच शिखर सम्मेलन में ई-गवर्नेंस में अपने उल्लेखनीय काम के लिए 'वर्ष का मुख्यमंत्री' पुरस्कार किसने जीता है?
A. योगी आदित्यनाथ B. नीतीश कुमार
C. शिवराज सिंह चौहान D. वसुंधरा राजे
E. एन. चंद्रबाबू नायडू

14. अंतर्राष्ट्रीय योग दिवस (IYD) 2018 पर, किस शहर ने एक ही समय में एक ही स्थान पर बड़ी संख्या में लोगों द्वारा किए गए योग के लिए गिनीज वर्ल्ड रिकॉर्ड (जी.डब्ल्यू.आर) बनाया है?
A. मुंबई B. चंडीगढ़
C. नई दिल्ली D. कोटा
E. भोपाल

15. त्रिपुरा में आयोजित 'नीति फोरम फॉर नॉर्थ ईस्ट' की पहली बैठक में, नीति आयोग के उपाध्यक्ष राजीव कुमार ने कहा कि पूर्वोत्तर क्षेत्र में विकास परियोजनाओं का ध्यान 'HIRA' की अवधारणा पर आधारित होगा? 'HIRA' का पूरा रूप क्या है?
A. Highways, Internet Waterways, Roads, and Airways
B. Highways, Internet Waterways, Railways, and Airways
C. Highways, Inland Waterways, Railways, and Airways
D. Highways, Inland Waterways, Railways, and Airport
E. Highways, Internet, Waterways, Railways, and Airlines

16. सेबी ने डिजीटल वालेट से निवेशकों को कितनी राशि तक की म्युचुअल फण्ड योजना खरीदने की स्वीकृति दी है?
A. 50,000रुपये B. 40,000रुपये
C. 30,000रुपये D. 20,000रुपये
E. 10,000रुपये

17. निम्न में से कौन भारत के प्रधानमंत्री के लिए आर्थिक सलाहकार परिषद (ई.ए.सी) का अध्यक्ष है?
A. बिबेक देबराय B. अरविंद पनगडिया
C. अरविंद सुब्रमण्यम D. बिमल जालान
E. इनमें से कोई नहीं

18. मनरेगा वित्तीय वर्ष में कम से कम ..... परिवार के वयस्क सदस्यों को न्यूनतम मजदूरी पर रोजगार के लिए कानूनी गारंटी प्रदान करता है।
A. 120 दिन B. 100 दिन
C. 150 दिन D. 80 दिन
E. 110 दिन

19. निम्न में से किन संगठनों ने देश के अपशिष्ट भूजल स्तर से निपटने हेतु अटलभूजल योजना के लिए 6000 करोड़ रूपए की मंजूरी दे दी है?
A. आई.एम.एफ B. ए.डी.बी
C. विश्व बैंक D. ए.आई.आई.बी
E. यू.एन

20. निम्न में से किस मंत्रालय ने लोगों के बीच मुफ्त वितरण के लिए चैरिटेबल धार्मिक संस्थानों (सी.आर.आई) द्वारा विशिष्ट खाद्य वस्तुओं की खरीद पर वित्तीय सहायता के लिए 'सेवा भोज योजना' शुरू की है?
A. वाणिज्य और उद्योग मंत्रालय
B. विदेश मंत्रालय
C. संस्कृति मंत्रालय
D. युवा मामला और खेल मंत्रालय
E. इनमें से कोई नहीं

21. उच्च शिक्षा में प्रवेश परीक्षा आयोजित करने के लिए निम्न में से किस एजेंसी का गठन किया गया है?
A. उच्च शिक्षा समिति
B. उच्च परीक्षा एजेंसी
C. परीक्षा आयोजित एजेंसी
D. भारतीय परीक्षा एजेंसी
E. राष्ट्रीय परीक्षण एजेंसी

22. 'विजय प्रहार' युद्ध अभ्यास 2018 किस राज्य में संपन्न हुआ?
A. मध्यप्रदेश B. राजस्थान
C. महाराष्ट्र D. आन्ध्रप्रदेश
E. ओडिशा

23. निम्नलिखित में से किन बैंक ने ग्राहक सहायता और सेवाओं के लिए आभासी सहायक 'ईएलए' (इलेक्ट्रॉनिक लाइव सहायक) लॉन्च करने की घोषणा की है?
A. एस.बी.आई कार्ड B. एचडीएफसी बैंक
C. ऐक्सिस बैंक D. यस बैंक
E. आईसीआईसीआई बैंक

24. कौन सा बैंक दो राज्यों हरियाणा और राजस्थान में 'आजीविका और जल सुरक्षा' पहल का शुभारंभ करने जा रहा है?
A. देना बैंक
B. एच.डी.एफ.सी बैंक
C. आई.सी.आई.सी.आई बैंक
D. येस बैंक
E. कोटक महिंद्रा बैंक

25. बीमा नियामक अधिनियम 1938 की किस धारा के तहत, बीमा कंपनी और गैर-बीमा कंपनी के विलय की अनुमति नहीं है?
A. धारा 35 B. धारा 21
C. धारा 8 D. धारा 91
E. धारा 24

26. जिस दर पर आरबीआई वाणिज्यिक बैंकों को अल्पकालिक ऋण देता है, उसे क्या कहा जाता है ?
A. रेपो दर B. रिवर्स रेपो दर
C. बैंक दर D. नकद आरक्षित दर
E. इनमें से कोई नहीं

27. एक सरकारी योजना, 'राष्ट्रीय सामाजिक सहायता कार्यक्रम' जो बुजुर्गों, विधवाओं और विकलांग लोगों को सामाजिक पेंशन के रूप में वित्तीय सहायता प्रदान करती है, निम्न में से किस मंत्रालय द्वारा संचालित है?
A. महिला एवं बाल विकास मंत्रालय
B. कॉर्पोरेट मामला मंत्रालय
C. ग्रामीण विकास मंत्रालय
D. मानव संसाधन विकास मंत्रालय
E. सामाजिक न्याय एवं अधिकारिता मंत्रालय

28. प्रधानमंत्री मोदी ने चंपारण में कार्यक्रम 'सत्याग्रह से स्वच्छाग्रह' पर भाषण दिया, जो निम्न में से किस राज्य में स्थित है?
A. मध्य प्रदेश B. उत्तर प्रदेश
C. महाराष्ट्र D. बिहार
E. राजस्थान

29. निम्न में से किस व्यक्ति को विश्व में टाइम्स के शीर्ष 100प्रभावशाली लोगों की सूची में शामिल नहीं किया गया है?
A. महावीर फोगाट B. विराट कोहली
C. भावेश अग्रवाल D. सत्य नाडेला
E. डोनाल्ड ट्रम्प

30. गुरुग्राम, भारत में आयोजित मिस सुपरमॉडल वर्ल्डवाइड 2018की विजेता का ताज किसे पहनाया गया था?
A. एकातिरीना इवदोकीमोवा
B. एलेक्जेंड्रा लियाशकोवा
C. ज़रीना एंडिरजनोवा
D. चांताराचोटा पापहट्टनुन
E. हेलिना तिलाहुन बिकिस

31. सूक्ष्म, लघु एवं सीमांत उद्यमियों से एन.पी.ए (गैर-निष्पादित संपत्ति) के रूप में बकाया ऋण घोषित करने की समय सीमा कितनी दिनों तक बढ़ा दी गई है?
A. 120 दिन B. 180 दिन
C. 150 दिन D. 210 दिन
E. 165 दिन

32. अंतर्राष्ट्रीय श्रम संगठन (आई.एल.ओ) द्वारा भारत में अनुमानित बेरोजगारी विकास दर कितनी है?
A. 3.5% B. 4.5%
C. 5.5% D. 6%
E. 3%

33. आयकर सूचनादाता पुरस्कार योजना (इनकम टैक्स इनफॉर्मेंट रिवार्ड स्कीम) के तहत, भारत में आय या परिसंपत्तियों पर कर की चोरी के संदर्भ में गोपनीय जानकारी देने के लिए एक व्यक्ति को कितना पुरस्कार मिल सकता है?
A. 25लाख B. 30लाख
C. 50लाख D. 1 करोड़
E. 5 करोड़

34. किस बैंक ने 10 करोड़ रूपये तक के इक्विटी शेयर जारी करके अपनी प्रतिभा को बनाए रखने और कर्मचारियों को प्रोत्साहन देने के उद्देश्य से एक कर्मचारी शेयर खरीद योजना की घोषणा की है?
A. भारतीय स्टेट बैंक
B. बैंक ऑफ इंडिया
C. बैंक ऑफ बड़ौदा
D. केनरा बैंक
E. पंजाब नेशनल बैंक

35. कितने वर्षों के बीच के आयु वर्ग के बच्चों को नि:शुल्क और अनिवार्य शिक्षा प्रदान की जाती है?
A. 5 से 13 वर्ष
B. 8 से 16 वर्ष
C. 7 से 15 वर्ष
D. 6 से 14 वर्ष
E. इनमें से कोई नहीं

36. भारत को 4 शहरों में आवागमन सबसे व्यवस्ततम समय के दौरान प्रति वर्ष 22 मिलियन डॉलर की हानि हो रही है। निम्नलिखित शहरों/केंद्र शासित प्रदेशों में से कौन सा इन 4 शहरों का हिस्सा नहीं है?
A. हैदराबाद
B. दिल्ली
C. मुंबई
D. कोलकाता
E. बेंगलुरु

37. मार्ग ई.आर.पी लिमिटेड ने मार्ग के एकाउंटिंग सॉफ्टवेयर का उपयोग करते हुए सूक्ष्म, लघु एवं मध्यम उद्यम (एम.एस.एम.ई) ग्राहकों को एकीकृत भुगतान मंच प्रदान करने के लिए निम्न में से किस बैंक के साथ साझेदारी की है?
A. आई.सी.आई.सी.आई बैंक
B. कोटक महिंद्रा बैंक
C. एच.डी.एफ.सी बैंक
D. भारतीय स्टेट बैंक
E. इंडसिंड बैंक

38. निम्न में से किस वर्ष तक स्वास्थ्य मंत्रालय का लक्ष्य सरकारी स्वास्थ्य व्यय को सकल घरेलू उत्पाद के प्रतिशत के रूप में मौजूदा 1.15%से 2.5% तक बढ़ाना है?
A. 2022
B. 2025
C. 2023
D. 2024
E. 2021

39. उदय कोटक समिति की सिफारिश पर, एक व्यक्ति के पास सूचीबद्ध कंपनी निदेशक पदों की अधिकतम संख्या 1अप्रैल, 2019 तक 10से _____और 1अप्रैल, 2020 तक 7कर दी जाएगी?
A. 9
B. 10
C. 8
D. 7
E. 6

40. पी.वी. सिंधु एक भारतीय बैडमिंटन खिलाड़ी हैं। वह ओलंपिक रजत पदक जीतने वाली पहली भारतीय महिला बनीं। वह निम्न में से किस राज्य से संबंधित हैं?
A. तेलंगाना
B. ओडिशा
C. मध्य प्रदेश
D. कर्नाटक
E. छत्तीसगढ़

निर्देश (41-45): निम्नलिखित जानकारी का ध्यानपूर्वक अध्ययन करें और दिए गए प्रश्नों के उत्तर दें:

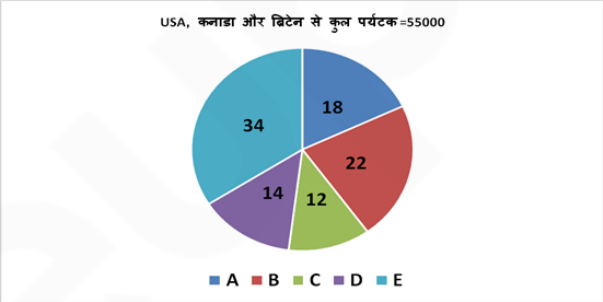

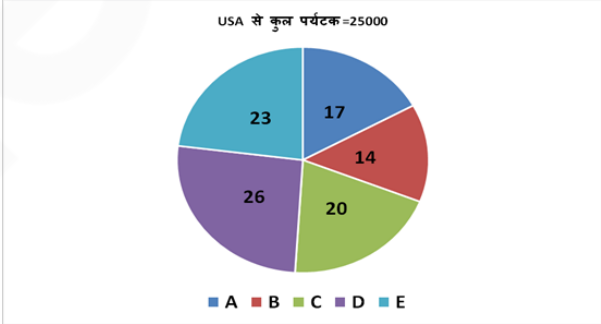

41. कुल पर्यटकों में E का केंद्रीय कोण ज्ञात करें?
A. 110.4डिग्री
B. 122.4 डिग्री
C. 126.6 डिग्री
D. 112.6 डिग्री
E. इनमें से कोई नहीं

42. शहर A के पर्यटकों में, जिसमें कनाडा के पर्यटकों की संख्या ब्रिटेन के पर्यटकों की संख्या से 1200 अधिक है। तो शहर A में कनाडा के पर्यटकों की संख्या ज्ञात करें?
A. 2225
B. 4450
C. 3425
D. 2255
E. इनमें से कोई नहीं

43. शहर E में कनाडा और ब्रिटेन से पर्यटकों की कुल संख्या तथा शहर D में कनाडा और ब्रिटेन से पर्यटकों की कुल संख्या के बीच अंतर ज्ञात करें?

A. 11750 B. 12950
C. 11725 D. 12000
E. इनमें से कोई नहीं

44. शहर B से यू.एस.ए पर्यटकों की कुल संख्या तथा शहर D से पर्यटकों की कुल संख्या के बीच अनुपात ज्ञात करें?
A. 14:15 B. 6:13
C. 11:5 D. 5:11
E. इनमें से कोई नहीं

45. यदि शहर C में कनाडा और इंग्लैंड से पुरुष तथा महिला पर्यटकों की कुल संख्या के बीच अनुपात क्रमश: 3:2 है, तो शहर C में कनाडा और इंग्लैंड से पुरुष पर्यटकों की संख्या ज्ञात करें?
A. 840 B. 1050
C. 960 D. 1130
E. इनमें से कोई नहीं

46. **निर्देश:**नीचे एक प्रश्न और उसके नीचे अंकित दो कथन I और II दिये गये हैं। आपको निर्णय करना है कि कथन में दी गई जानकारी प्रश्न का उत्तर देने के लिए पर्याप्त है या नहीं। आपको दी गई जानकारी और गणित के ज्ञान के उपयोग से संभव उत्तर को चुनना है।
A और C को एक-साथ काम करके कार्य को पूरा करने में 30 दिन लगते हैं। A को अकेले काम करने में कितना समय लगेगा?
I. A, B और C एक-साथ काम करके 20 दिन लेते हैं।
II. B, C से 2 गुना अधिक कुशल है।
A. अकेले कथन I का उपयोग करके प्रश्न का उत्तर दिया जा सकता है लेकिन अकेले अन्य कथन का उपयोग करके उत्तर नहीं दिया जा सकता है।
B. अकेले कथन II का उपयोग करके प्रश्न का उत्तर दिया जा सकता है लेकिन अकेले अन्य कथन का उपयोग करके उत्तर नहीं दिया जा सकता है।
C. अकेले किसी एक कथन का उपयोग करके प्रश्न का उत्तर दिया जा सकता है।
D. दोनों कथनों का एक-साथ उपयोग करके प्रश्न का उत्तर दिया जा सकता है, लेकिन अकेले किसी एक कथन का उपयोग करके उत्तर नहीं दिया जा सकता है।
E. दोनों कथनों का एक-साथ उपयोग करके भी प्रश्न का उत्तर नहीं दिया जा सकता है।

47. **निर्देश:**नीचे एक प्रश्न और उसके नीचे अंकित दो कथन I और II दिये गये हैं। आपको निर्णय करना है कि कथन में दी गई जानकारी प्रश्न का उत्तर देने के लिए पर्याप्त है या नहीं। आपको दी गई जानकारी और गणित के ज्ञान के उपयोग से संभव उत्तर को चुनना है।
शंकु के आधार की त्रिज्या 4.2 सें.मी. है, शंकु का आयतन क्या है?
I. तिरछी ऊंचाई का ऊंचाई से अनुपात 1.25:1 है।
II. कुल सतह क्षेत्रफल का आयतन से अनुपात 1.5:1 है।
A. अकेले कथन I का उपयोग करके प्रश्न का उत्तर दिया जा सकता है लेकिन अकेले अन्य कथन का उपयोग करके उत्तर नहीं दिया जा सकता है।
B. अकेले कथन II का उपयोग करके प्रश्न का उत्तर दिया जा सकता है लेकिन अकेले अन्य कथन का उपयोग करके उत्तर नहीं दिया जा सकता है।
C. अकेले किसी एक कथन का उपयोग करके प्रश्न का उत्तर दिया जा सकता है।
D. दोनों कथनों का एक-साथ उपयोग करके प्रश्न का उत्तर दिया जा सकता है, लेकिन अकेले किसी एक कथन का उपयोग करके उत्तर नहीं दिया जा सकता है।
E. दोनों कथनों का एक-साथ उपयोग करके भी प्रश्न का उत्तर नहीं दिया जा सकता है।

48. **निर्देश:** नीचे दिए गए प्रश्न के साथ कुछ कथन दिए गए हैं। आपको यह तय करना है कि कोन सा/से कथन प्रश्न का उत्तर देने के लिए पर्याप्त/आवश्यक है/हैं।
टीम X और टीम Y के बीच एक खेल में अंतिम स्कोर क्या था ?
(1) टीम X ने खेल के दूसरे हाफ में पहले हाफ की तुलना में 14 अंक अधिक स्कोर किए।
(2) खेल के पहले भाग के अंत में , स्कोर सामान थे , लेकिन टीम Y ने 4 अंकों से गेम जीता।
A. पूछे गए प्रश्न का उत्तर देने के लिए अकेले कथन (1) पर्याप्त है , लेकिन अकेले कथन (2) पर्याप्त नहीं है
B. पूछे गए प्रश्न का उत्तर देने के लिए अकेले कथन (2) पर्याप्त है , लेकिन अकेले कथन (1) पर्याप्त नहीं है
C. प्रश्न का उत्तर देने के लिए कथन (1) और (2) दोनों पर्याप्त हैं , लेकिन कोई भी कथन अकेले पर्याप्त नहीं है

D. पूछे गए प्रश्न का उत्तर देने के लिए प्रत्येक कथन अकेले पर्याप्त है

E. पूछे गए प्रश्न का उत्तर देने के लिए कथन (1) और (2) एक साथ पर्याप्त नहीं हैं , और अतिरिक्त डाटा की जरूरत है

49. **निर्देश:** नीचे दिए गए प्रश्न के साथ कुछ कथन दिए गए हैं। आपको यह तय करना है कि कोन सा/से कथन प्रश्न का उत्तर देने के लिए पर्याप्त/आवश्यक है/हैं।

यदि लाइन A पर उत्पादन वर्ष 2006 से 2007 तक 5% बढ़ जाता है , और यदि लाइन B पर उत्पादन में समान अवधि में 10% की वृद्धि हुई है , तो वर्ष 2006 में लाइन A के उत्पादन में कितनी इकाइयों का उत्पादन हुआ?

(1) वर्ष 2006 में दोनों लाइनों ने संयुक्त रूप से 100 , 000 इकाइयों का उत्पादन किया।

(2) वर्ष 2007 में दोनों लाइनों ने संयुक्त रूप से 107 , 500 इकाइयों का उत्पादन किया।

A. पूछे गए प्रश्न का उत्तर देने के लिए अकेले कथन (1) पर्याप्त है , लेकिन अकेले कथन (2) पर्याप्त नहीं है

B. पूछे गए प्रश्न का उत्तर देने के लिए अकेले कथन (2) पर्याप्त है , लेकिन अकेले कथन (1) पर्याप्त नहीं है

C. प्रश्न का उत्तर देने के लिए कथन (1) और (2) दोनों पर्याप्त हैं , लेकिन कोई भी कथन अकेले पर्याप्त नहीं है

D. पूछे गए प्रश्न का उत्तर देने के लिए प्रत्येक कथन अकेले पर्याप्त है

E. पूछे गए प्रश्न का उत्तर देने के लिए कथन (1) और (2) एक साथ पर्याप्त नहीं हैं , और अतिरिक्त डाटा की जरूरत है

50. एक बियर कंपनी ने पिछले साल हॉप, खमीर और माल्ट पर 100,000 डॉलर खर्च किए। होप्स के लिए कुल व्यय कितना था ?

(1) खमीर के लिए व्यय माल्ट के व्यय से 20% अधिक था।

(2) खमीर और माल्ट के लिए कुल व्यय हॉप के व्यय के बराबर था।

A. पूछे गए प्रश्न का उत्तर देने के लिए अकेले कथन (1) पर्याप्त है , लेकिन अकेले कथन (2) पर्याप्त नहीं है

B. पूछे गए प्रश्न का उत्तर देने के लिए अकेले कथन (2) पर्याप्त है , लेकिन अकेले कथन (1) पर्याप्त नहीं है

C. प्रश्न का उत्तर देने के लिए कथन (1) और (2) दोनों पर्याप्त हैं , लेकिन कोई भी कथन अकेले पर्याप्त नहीं है

D. पूछे गए प्रश्न का उत्तर देने के लिए प्रत्येक कथन अकेले पर्याप्त है

E. पूछे गए प्रश्न का उत्तर देने के लिए कथन (1) और (2) एक साथ पर्याप्त नहीं हैं , और अतिरिक्त डाटा की जरूरत है

51. **निर्देश:** निम्नलिखित प्रश्नों का ध्यानपूर्वक अध्ययन करें और दिए गए प्रश्नों के उत्तर दें:

निम्नलिखित तालिका प्रत्येक शिक्षक द्वारा अलग-अलग दिनों में ली गई कक्षाओं की संख्या और शिक्षक को प्रति कक्षा दी गई कुल धनराशि को दर्शाती है।

कुछ निश्चित पाठ्यक्रम के लिए अन्य जानकारी इस प्रकार है-

	सोमवार, मंगलवार और बुधवार को प्रत्येक व्यक्ति द्वारा ली गई कक्षाओं की संख्या	गुरुवार और शुक्रवार को प्रत्येक व्यक्ति द्वारा ली गई कक्षाओं की संख्या	प्रति कक्षा वेतन (रुपये)
सुशांत	2	0	400
विशाल	3	-	800
भूपेंदर	1	3	500
शिरोमणी	2	2	1200

नोट:

शनिवार और रविवार के दिन अवकाश है।

"-"लुप्त मान हैं, हमें प्रश्नानुसार मान ज्ञात करने हैं।

51. एक सप्ताह में सुशांत द्वारा लिए गए व्याख्यानों की संख्या तथा शिरोमणी द्वारा लिए गए व्याख्यानों की संख्या के बीच अनुपात ज्ञात करें?

A. 5:3 B. 3:5
C. 2:1 D. 1:1
E. इनमें से कोई नहीं

52. भूपेंदर द्वारा अर्जित धनराशि ज्ञात करें यदि उसने 6 सप्ताह के लिए पढ़ाया है?

A. 27000 B. 45000
C. 30000 D. 35000
E. इनमें से कोई नहीं

53. शिरोमणि द्वारा 2 सप्ताह में अर्जित धनराशि तथा भूपेंदर द्वारा 3 सप्ताह में अर्जित धनराशि के बीच अंतर ज्ञात करें?

A. 10500 B. 13500
C. 12500 D. 16500
E. इनमें से कोई नहीं

54. यदि विशाल गुरुवार और शुक्रवार को 2 कक्षाएं लेता है, तो वह एक सप्ताह में कितनी धनराशि अर्जित कर सकता है?
A. 9000 B. 3000
C. 8000 D. 10,400
E. इनमें से कोई नहीं

55. यदि विशाल को तीन सप्ताह के लिए 48000 रुपये की धनराशि दी गई थी, तो शिक्षक B द्वारा गुरुवार और शुक्रवार को एक-साथ ली गई कक्षा/कक्षाओं की संख्या ज्ञात करें?
A. 10 B. 12
C. 11 D. 14
E. इनमें से कोई नहीं

56. **निर्देश:** निम्न प्रश्न में दो समीकरण दी गई हैं| दोनों समीकरणों को हल कीजिये तथा उत्तर दीजिये|
I. $x^3+312=437$
II. $y^4-226=399$
A. x>y B. x<y
C. x≥y D. x≤y
E. x=y या सम्बन्ध स्थापित नहीं किया जा सकता है

57. **निर्देश:** निम्नलिखित प्रश्न में दो समीकरण दी गई हैं| दोनों समीकरणों को हल कीजिये तथा उत्तर दीजिये:
$x^2-16^2=23^2-56$
$y^2-25y+156=0$
A. x>y B. x<y
C. x≥y D. x≤y
E. x=y या सम्बन्ध स्थापित नहीं किया जा सकता है

58. **निर्देश:** निम्न प्रश्न में दो समीकरण दी गई हैं| दोनों समीकरणों को हल कीजिये तथा उत्तर दीजिये|
I. $6x^2 - 37x+56 = 0$
II. $4y^2- 33y+68 = 0$
A. x> y B. x ≥ y
C. y>x D. y ≥ x
E. x = y अथवा संबंध स्थापित नहीं किया जा सकता है

59. **निर्देश:**नीचे दिए गए प्रश्न में दो समीकरण I और II दी गई हैं| दोनों समीकरणों को हल कीजिये तथा सही उत्तर का चयन कीजिये:
I. $x^3 - 468 = 1729$
II. $y^2 - 1733 + 1564 = 0$
A. यदि x < y B. यदि x > y
C. यदि x ≤ y D. यदि x ≥ y
E. यदि x = y अथवा संबंध स्थापित नहीं कर सकते हैं

60. **निर्देश:** निम्न प्रश्न में दो समीकरण दी गई हैं| आपको इन समीकरणों को हल करना है और उत्तर देना है:
1) $36x^2= 1$
2) $3y^2 + 7y +2= 0$
A. x > y B. x ≥ y
C. y >x D. y ≥ x
E. x = yया संबंध स्थापित नहीं किया जा सकता

निर्देश (61-65): निम्नलिखित प्रश्नों का ध्यानपूर्वक अध्ययन करें और दिए गए प्रश्नों के उत्तर दें:
वर्ष 2015 में , एक कंपनी का वेतन पर व्यय 16 लाख रुपये है तथा कर्मचारियों की कुल संख्या 80 है और वर्ष 2016 में कर्मचारियों का औसत वेतन पिछले वर्ष की तुलना में 4000 रुपये अधिक है। वर्ष 2016 मेंवेतन पर व्यय पिछले वर्ष की तुलना में 20% अधिक है।वर्ष 2016 में अन्यव्यय 34 लाख रुपये है। वर्ष 2015 और 2016 में कुल व्यय समान है। वर्ष 2017 में, कर्मचारियों की संख्या पिछले वर्ष की तुलना में 5 कमहै। वर्ष 2017 में कर्मचारियों का औसत वेतन 15000 रुपये है और वर्ष 2017 में अन्य व्यय 47.75 लाख रुपये है।

नोट:
वेतन व्यय = कर्मचारियों का औसत वेतन * कर्मचारियों की संख्या
कुल व्यय = वेतन पर व्यय + अन्य व्यय

61. वर्ष 2015 में कुल व्यय वर्ष 2017 में कुल व्यय का लगभग कितने प्रतिशत है?
A. 110 B. 90
C. 75 D. 100
E. इनमें से कोई नहीं

62. दिए गए सभी वर्षों में कर्मचारियों का कुल औसत वेतन ज्ञात करें?
A. 59000 रुपये B. 48000 रुपये
C. 53000 रुपये D. 56000 रुपये
E. इनमें से कोई नहीं

63. वर्ष 2015 में कर्मचारियों की संख्या तथा वर्ष 2017 में कर्मचारियों की संख्या के बीच अंतर ज्ञात करें?
A. 5 B. 15
C. 10 D. 12
E. इनमें से कोई नहीं

64. दिए गए सभी वर्षों में एक-साथ अन्य व्यय का औसत ज्ञात करें?

A. 39.65 लाख रुपये B. 35.72 लाख रुपये
C. 33.58 लाख रुपये D. 41.25 लाख रुपये
E. इनमें से कोई नहीं

65. वर्ष 2017 में कुल व्यय वर्ष 2016 में अन्य व्यय से लगभग कितने प्रतिशत अधिक/कम है?
A. 50% अधिक B. 60% कम
C. 75% अधिक D. 75% कम
E. इनमें से कोई नहीं

66. समान आधार वाले शंकु और बेलन के आयतन का अनुपात क्रमश: 5: x है। यदि शंकु की ऊंचाई 45 सेमी हो और शंकु और बेलन के आधारों को कुछ इस प्रकार परस्पर मिलाने से कि समान शंकु और बेलन को जोड़ने से बनी आकृति का संपूर्ण पृष्ठीय क्षेत्रफल 11340 वर्ग सेमी हो तो x का मान ज्ञात करें, यदि शंकु की त्रिज्या 28 सेमी है। ($\pi = 3$ प्रयोग करें)
A. 4 B. 6
C. 9 D. 12
E. इनमें से कोई नहीं

67. एक नदी में धारा की गति 2 कि.मी/घंटा है। नाव A बिंदु X से बिंदु Yकी ओर धारा की विपरीत दिशा में और नाव B बिंदु Yसे बिंदु X की ओर धारा की दिशा में जा रही है। स्थिर पानी में नाव A की गति 14 कि.मी/घंटा है तथा नदी में धारा की विपरीत दिशा में जाते समय नाव A की गति और धारा की दिशा में जाते समय नाव B की गति के बीच अनुपात क्रमश: 3:4 है। नाव A और नाव B अपने संबंधित स्थान से एक साथ चलना प्रारंभ करती हैं लेकिन 4 घंटे 24 मिनट बाद तकनीकी समस्या के कारण नाव B की गति 25% कम हो जाती है। यदि दोनों प्रारंभ से 6 घंटे बाद एक-दूसरे को पार करती हों तो बिंदु Xऔर Y के बीच दूरी ज्ञात करें?
A. 162.4 कि.मी B. 178.2 कि.मी
C. 164.4 कि.मी D. 171.8 कि.मी
E. इनमें से कोई नहीं

68. हर्ष और कबीर ने क्रमश: 90,000 रुपये और 1,50,000 रुपये क्रमश: 6% और 9% वार्षिक साधारण ब्याज की दर से 'y+2'और 'y+5' वर्ष के लिए जमा किए। यदि कबीर की संचित धनराशि हर्ष की संचित धनराशि से 132900 रुपये अधिक थी, यदि 'y' वर्ष के लिए 5% वार्षिक चक्रवृद्धि ब्याज की दर से निवेश किया जाए तो 12,00,000 रुपये की संचित धनराशि क्या होगी?
A. 1642000 रुपये B. 986800 रुपये
C. 1047000 रुपये D. 1323000 रुपये
E. इनमें से कोई नहीं

69. एक दुकानदार अपने सामान को उसी कीमत पर बेचता है जिस दर पर वह अपने आपूर्तिकर्ता को देता है। लेकिन जब वह अपने आपूर्तिकर्ता से खरीदता है, तो वह संकेतित वज़न से 15% अधिक लेता है और जब वह अपने ग्राहकों को बेचता है तो वह संकेतित वज़न से 15% कम देता है। उसका लाभ प्रतिशत ज्ञात करें?
A. 500/23% B. $35\frac{5}{17}$ %
C. $31\frac{5}{11}$% D. 23%
E. इनमें से कोई नहीं

70. राम, लक्ष्मण से 20% अधिक कार्य कुशल है। यदि राम दो-तिहाई कार्य को D दिनों में पूरा करता है तो शेष कार्य लक्ष्मण द्वारा (D-8) दिनों में पूरा किया जाता है। दोनों ने साथ में कार्य करना प्रारंभ किया, राम अपनी दो-तिहाई क्षमता से कार्य कर रहा था और लक्ष्मण 4/5 क्षमता से कार्य कर रहा था। कुछ दिनों बाद, उन्होंने अपनी पूरी क्षमता से कार्य करना शुरु कर दिया और शेष कार्य उनके द्वारा 12 दिनों में समाप्त हो गया। उन दिनों की संख्या ज्ञात करें जिनमें उन्होंने अपनी पूरी क्षमता से कार्य नहीं किया था?
A. 4 दिन B. 5 दिन
C. 6 दिन D. 7 दिन
E. 8 दिन

71. **निर्देश:** निम्नलिखित जानकारी का ध्यानपूर्वक अध्ययन करें और दिए गए प्रश्नों के उत्तर दें:
नीचे दिया गया बार ग्राफ विभिन्न खेलों में भाग लेने वाले विद्यार्थियों की कुल संख्या (लड़के + लड़की) और लड़कों की कुल संख्या को दर्शाता है।

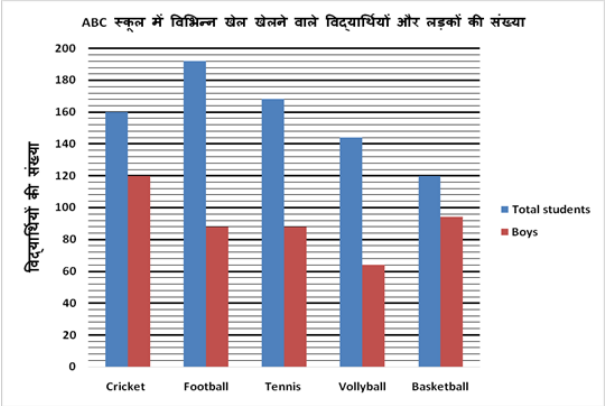

71. क्रिकेट तथा बास्केटबॉल दोनों में भाग लेने वाली लड़कियों की कुल संख्या ज्ञात करें?
A. 76 B. 66
C. 42 D. 54
E. इनमें से कोई नहीं

72. फुटबॉल और टेनिस में भाग लेने वाले विद्यार्थियों की कुल संख्या तथा क्रिकेट में भाग लेने वाले लड़कों की संख्या के बीच अनुपात ज्ञात करें?
A. 3:1 B. 22:45
C. 36: 51 D. 51:36
E. इनमें से कोई नहीं

73. सभी पांच खेलों में एक-साथ भाग लेने वाली लड़कियों की संख्या का औसत ज्ञात करें?
A. 66 B. 11
C. 22 D. 55
E. इनमें से कोई नहीं

74. बास्केटबॉल में भाग लेने वाले लड़कों की संख्या तथा टेनिस में भाग लेने वाली लड़कियों की संख्या के बीच अंतर ज्ञात करें?
A. 80 B. 30
C. 60 D. 14
E. इनमें से कोई नहीं

75. फुटबॉल में भाग लेने वाली लड़कियों की कुल संख्या टेनिस में भाग लेने वाले लड़कों की कुल संख्या की लगभग कितनी प्रतिशत है?
A. 109 B. 98
C. 118 D. 140
E. इनमें से कोई नहीं

76. L, M और N ने क्रमश: 600000 रुपये, 450000 रुपये और 900000 रुपये का निवेश करके एक व्यवसाय आरंभ किया। L, M और N ने क्रमश: चौथे, 7वें और 9वें महीने के अंत में 240000 रुपये की अतिरिक्त पूंजी का निवेश क्रमश: 5:3:4 के अनुपात में किया। पहले वर्ष के 49480 रुपये के लाभ में Mका हिस्सा ज्ञात करें?
A. 12500 रुपये B. 11400 रुपये
C. 17200 रुपये D. 14200 रुपये
E. इनमें से कोई नहीं

77. अंग्रेजीभाषा की वर्णमाला में से दोअक्षरों कोचुना जाताहै। दोनोंअक्षरों के स्वरहोने की क्या संभावना है?
A. 2/65 B. 11/65
C. 14/65 D. 17/65
E. 0.5

78. बर्तन P, Q और R में पेट्रोल और डीजल के मिश्रण की मात्रा क्रमश: 400, 250 और 300 लीटर है। बर्तन P, Q और R में पेट्रोल और डीजल की मात्रा का अनुपात क्रमश: 5: 3, 3:2 और 1: 1 था। प्रत्येक बर्तन से 'x%' मात्रा निकाली गई और एक ड्रम में डाली गई। यदि ड्रम में पेट्रोल की मात्रा डीजल की मात्रा से 120 लीटर अधिक थी तो 'x' का मान ज्ञात करें?
A. 75 B. 50
C. 80 D. 45
E. इनमें से कोई नहीं

79. 9 वर्ष पहले, 8 सदस्यों वाले एक संयुक्त परिवार की आयु का योग 260 वर्ष था। चार वर्ष बाद, एक सदस्य की 50 वर्ष की आयु में मृत्यु हो जाती है और उसी वर्ष के दौरान एक बच्चे का जन्म होता है। अगले चार वर्षों के बाद एक और सदस्य की 50 वर्ष की आयु में मृत्यु हो जाती है और उसी वर्ष के दौरान एक बच्चे का जन्म होता है। आठ सदस्यों वाले इस संयुक्त परिवार की वर्तमान औसत आयु का लगभग मान ज्ञात करें?
A. 23 वर्ष B. 22 वर्ष
C. 21 वर्ष D. 25 वर्ष
E. 29 वर्ष

80. 3 छात्रों P, Q और R का औसत वज़न 84 किलो है। एक अन्य छात्र Sसमूह में शामिल हो जाता है और औसत 80 कि.ग्रा. हो जाता है। यदि एक दूसरा आदमी T जिसका वज़न S की तुलना में 3 किलो अधिक है वे P के स्थान पर आ जाता है तो Q, R, S और T का औसत वज़न 79 किलो हो जाता है तो P का वज़न क्या है?
A. 75 कि.ग्रा. B. 82 कि.ग्रा.
C. 45 कि.ग्रा. D. 98 कि.ग्रा.
E. इनमें से कोई नहीं

Direction (81-84): Study the following information and answer the questions. Trishaa starts walking from point A, walks 12 m to the south ad reaches point B. She then takes a left turn and walks 7 m to reach point C. She then takes a left, walks 5 m and reaches Point D. From Point D she turns left, walks 11 m and stops at point E. Point P is to the west of Point B. Rishi who is standing at point P walks for a distance equal to the shortest distance between B and E and reaches Point Q. From Point Q he takes a left turn, walks for a certain distance and reaches point E.

81. Mehul starts walking towards south from Point B. He walks for a certain distance to reach Point K. He then takes a left turn walks for 10 m, takes another left turn and stops after walking for 9 m. If his final position is 3 m to the east of Point D, what is the distance between Point B and Point K?
A. 4 m B. 6 m
C. 5 m D. 2 m
E. Cannot be determined

82. Point M is 9 m to the north of Point Q. From Point M, which of the following walking directions would lead to point A?
A) 12 m towards west, turn right and walk for 2 m, then turn right and walk for 7 m.
B) 4 m towards east, turn left and walk for 3 m, then turn right and walk 5 m.
C) 3 m towards north, turn left, walk 19 m, turn left and walk 5 m.
D) 3 m towards north, turn right and walk for 4 m.
A. Both A and D B. Only D
C. Both B and C D. Only C
E. Only B

83. Point Z is 9 m to the east of Point A. Arun starts from point Z, walks towards south, takes a right turn and walks for a certain distance to reach Point D. What is the total distance that Arun has to walk in order to reach Point D ?
A. 20 m B. 11 m
C. 19 m D. 9 m
E. 15 m

84. मुंबई की लोकल ट्रेने वहॉ की जीवनरेखा है। शहर के सबसे भीड़-भाड़ वाले क्षेत्र में मुंबई के उपनगरीय क्षेत्र के रेलवे के यात्रियो के समूह ने पिछले एक वर्षो में इस रूट में अधिक भीड़ होने के कारण दुर्घटनाओ की संख्या में काफी इजाफा होने के कारण हड़ताल कर दी है। यात्रियो ने तब तक हड़ताल जारी रखने को कहा है जब तक प्राधिकरण इस रूट में ट्रेनो की संख्या को बढ़ा नहीं देता है।
उपर्युक्त कथन में से निम्नलिखित में से कौन निष्कर्षित किया जा सकता है?
A. ट्रेनो की संख्या बढ़ने से इस प्रकार की दुर्घटनाओ की संख्या में कमी होगी
B. मुंबई उपनगरीय क्षेत्र में चलने वाली ट्रेनो में अधिक भीड़ होती है
C. रेलवे प्राधिकरण यात्रियो की सुरक्षा के प्रति उदासीन है
D. पिछले एक वर्ष में रेलवे ने यात्रियों की संख्या बढ़ाने के अनुपात में ट्रेनो की संख्या नहीं बढ़ायी है
E. इनमें से कोई नहीं

85. **निर्देश:** निम्न प्रत्येक प्रश्न में, दो कथन दिए गए हैं। वे या तो स्वतंत्र कारण, स्वतंत्र प्रभाव हो सकते हैं या एक दूसरे कारन और प्रभाव हो सकते हैं| दोनों बयानों को सावधानीपूर्वक पढ़ें और चिह्नित करें:
कथन :
I. कोच्चि को अपना नया ट्रैफिक लाइट सिस्टम प्राप्त हुआ, जो विशेषत: ट्रैफिक समस्याओं तथा रोड़ ब्लॉकों से निपटने के लिए डिजाइन किया गया था।
II. कोच्चि में सड़क दुर्घटनाओं की संख्या पिछले 2महीनों में कम हो गई है।
A. कथन I कारण है तथा कथन II इसका प्रभाव है
B. कथन II कारण है तथा कथन I इसका प्रभाव है
C. दोनों कथन I तथा II स्वतंत्र कारण हैं
D. दोनों कथन I तथा II स्वतंत्र कारणों के प्रभाव हैं
E. दोनों कथन I तथा II कुछ सामान्य कारणों के प्रभाव हैं

86. **निर्देश:** एक कथन के बाद तीन अनुमान I, II और III दिए गए हैं। आपको दिए गए कथन को ज्ञात तथ्यों से भिन्न होने पर भी सत्य मानते हुए यह ज्ञात करना है कि कौन सा अनुमान यदि कोई है, दिए गए कथन का अनुसरण करता है।
कथन: वर्ष 2016में सरकार द्वारा बड़े मूल्य वर्ग के बैंक नोटों को रद्द करने के बाद से भारत में डिजिटल भुगतान प्रणाली की लोकप्रियता बढ़ गई है।

अनुमान:

I. आजकल के दिनों में लोगों को नकद भुगतान के बजाय इलेक्ट्रॉनिक तरीकों से भुगतान करना आसान लगता है।

II. आम लोगों को डिजिटल भुगतान की सुविधा का एहसास हुआ, इसी कारण से इसे लोकप्रियता मिली।

III. अच्छे विज्ञापनों के कारण डिजिटल भुगतान प्रणाली को भारत में लोप्रियता मिली।

A. केवल I अनुसरण करता है

B. केवल II अनुसरण करता है

C. I और II दोनों अनुसरण करते हैं

D. II और III दोनों अनुसरण करते हैं

E. I और III दोनों अनुसरण करते हैं

87. **निर्देश:** नीचे दिए गए प्रश्नों में, दिया गया कथन दो तर्कों का अनुसरण करता है। सबसे उपयुक्त विकल्प का चयन करें|

कथन:

पिछले साल 2016 में भारत सरकार ने छाया अर्थव्यवस्था को कम करने और गैर-कानूनी और नकली मुद्रा के इस्तेमाल को रोकने के लिए सभी 500 और 1000 रुपये के नोटों पर प्रतिबंध लगा दिया था, जो कि अवैध गतिविधियों और आतंकवाद को धन देते हैं।

तर्क:

I. भ्रष्टाचार से निपटने और नकली नकदी के इस्तेमाल को रोकने के लिए यह सबसे अच्छा तरीका था।

II. विमुद्रीकरण एक बुरे विचार की तरह लग रहा है, कुछ हॉफ बेक्ड विचारों के आधार पर बुरी तरह प्रभावित है ।

A. केवल 1महत्वपूर्ण है

B. केवल 2महत्वपूर्ण है

C. दोनों समान रूप से वैध हैं

D. कोई भी वैध नहीं है

E. एक साथ, उन्हें एक महत्वपूर्ण तर्क बनाने के लिए इस्तेमाल किया जा सकता है

88. **निर्देश**: नीचे दिये गये प्रश्न में एक कथन दिया गया है, जो वादकरण I और II का अनुसरण करता है। आपको कथन में दी गयी जानकारी के आधार पर उन्हें पूर्णतया सत्य मानना है। निश्चित करें कि कौन सा वादकरण तार्किक रूप से अनुसरण करता है।

कथन: पूर्व तथ्यों के आधार पर किसी निश्चित क्षेत्र में हुए दंगे पर बनायी गयी रिपोर्ट के अनुसार किसी निश्चित क्षेत्र के निवासियो के द्वारा सामान्य रूप से विरोध किया गया था और समिति उस पूरी घटना को प्रदर्शित कर रही है।

निष्कर्ष:

I. उपयुक्त जांच के लिये अन्य जांच समिति भेजनी चाहिये।

II. समिति के सदस्यों को सख्त दंड देना चाहिये।

III. अगली समिति में केवल उस क्षेत्र के निवासी होने चाहिये।

A. केवल I अनुसरण करता है।

B. केवल II अनुसरण करता है।

C. केवल I और II अनुसरण करते है।

D. केवल III अनुसरण करता है।

E. उपर्युक्त में से कोई नहीं

89. **Direction:** A word and number arrangement machine when given an input line of words and numbers rearranges them following a particular rule in each step. The following is an illustration of input and rearrangement. (All the numbers are two-digit numbers).

Input : 42 prey ban 78 21 melt gulp 96 83 head

Step I : ban 23 42 prey 78 melt gulp 96 83 head

Step II : gap 44 ban 23 prey 78 melt 96 83 head

Step III : had 80 gap 44 ban 23 prey melt 96 83

Step IV : mat 85 had 80 gap 44 ban 23 prey 96

Step V : pay 98 mat 85 had 80 gap 44 ban 23

Step V is the last step of the above arrangement as the intended output of arrangement is obtained.

As per the rules followed in the given steps, find the appropriate steps for the given input.

Input : 61 rust 33 colt 86 gap 44 ban 23

'torn' is related to 'rust' in step I in the same way as 'lap' is related to 'tan' in step V. Following the same pattern to which element is '86' related to in step IV?

A. cat B. 51
C. 35 D. far
E. 30

90. What is the difference between the third element from the right end in step V and the fifth element from the left end in step II?
A. 31 B. 55
C. 26 D. 5
E. 16

91. In step III, how many elements are there between '86' and the third element from the left end?
A. More than three B. One
C. Three D. None
E. Two

92. Which of the following represents the element that is fifth to the right of 'cat' in step III?
A. torn B. 63
C. lap D. far
E. 86

93. Which of the following is the fourth to the left of the eighth element from the left end of step II?
A. cat B. far
C. 35 D. rust
E. 30

निर्देश (94-98): नीचे दी गई जानकारी का ध्यानपूर्वक अध्ययन करें और इस पर आधारित प्रश्नों के उत्तर दें।

सात व्यक्ति A, B, C, D, E, F और G का जन्म विभिन्न वर्षों 1950, 1953, 1961, 1968, 1972, 1985, 1996में हुआ है। आधार वर्ष 2018 है। वे सात अलग-अलग फल जैसे- आम, अमरूद, अनार, लीची, सेब, अंजीर और केला पसंद करते हैं।

B और E की आयु का योग 90 है। B, Eसे बड़ा है। E और अंजीर पसंद करने वाले व्यक्ति की आयु में 11 वर्षों का अंतर है। केवल दो व्यक्ति अनार पसंद करने वाला व्यक्ति से छोटे है। अनार पसंद करने वाले व्यक्ति और Gकी आयु का योग 103 वर्ष है। केला पसंद करने वाला व्यक्ति, G से छोटा है। आम पसंद करने वाले व्यक्ति से बड़े व्यक्तियों की संख्या, केला पसंद करने वाले व्यक्ति से छोटे व्यक्तियों की संख्या के बराबर है।

Aऔर D की आयु का योग 115 वर्ष है। A, Dसे छोटा है। A और अमरूद पसंद करने वाले व्यक्ति की आयु में 15 वर्षों का अंतर है। F, Cसे बड़ा है। लीची पसंद करने वाला व्यक्ति, सेब पसंद करने वाले व्यक्ति से बड़ा है।

94. 1972 में जन्में व्यक्ति के संदर्भ में निम्नलिखित में से कौन सा कथन असत्य है?
A. F का जन्म 1972 में हुआ था।
B. G, 1972 में जन्में व्यक्ति से 11 वर्ष बड़ा है।
C. लीची पसंद करने वाले व्यक्ति से 11 वर्ष बड़ा है।
D. अंजीर पसंद करने वाले व्यक्ति से 13 वर्ष छोटा है।
E. सभी गलत हैं।

95. सेब और अंजीर पसंद करने वाले व्यक्तियों की आयु में अंतर ज्ञात कीजिए?
A. 14 वर्ष B. 11 वर्ष
C. 15 वर्ष D. 17 वर्ष
E. उपर्युक्त में से कोई नहीं

96. आम और केला पसंद करने वाले व्यक्तियों की आयु का योग कितना है?
A. 90 वर्ष B. 103 वर्ष
C. 115 वर्ष D. 112 वर्ष
E. 96 वर्ष

97. निम्नलिखित में से कौन सा संयोजन सही है?
A. A – 1968 – सेब B. C – 1985 – अंजीर
C. A – 1968 – सेब D. F – 1972 – अनार
E. B – 1953 – आम

98. निम्नलिखित में से किस व्यक्ति का जन्म 1996 में हुआ था?
A. A B. D
C. C D. E
E. F

99. नीचे दी गई जानकारी का ध्यानपूर्वक अध्ययन करें और इस पर आधारित प्रश्नों के उत्तर दें।

दस मित्र - A, B, C, D, E, P, Q, R, Sऔर T एक-दूसरे की ओर मुख करके दो पंक्तियों में बैठे है P, Q, R, Sऔर T का मुख दक्षिण दिशा में और शेष व्यक्तियों का मुख उत्तर दिशा में है। वे पांच विभिन्न रंग जैसे- गुलाबी, काला, पीला, नारंगी और नीला पसंद करते हैं। दोनों पंक्तियों में एक रंग केवल ही व्यक्ति ही पसंद करता है। समान रंग पसंद करने वाले व्यक्तियों के मुख एक-दूसरे की ओर नहीं हैं।

R, Dकी ओर मुख करके बैठे व्यक्ति के बाएं तीसरा है। Cऔर गुलाबी रंग पसंद करने वाले व्यक्ति के बीच में कम से कम 2 व्यक्ति बैठे है। Qऔर पीला रंग पसंद

करने वाले व्यक्ति के बीच में दो व्यक्ति बैठे है। नीला रंग पसंद करने वाले और A के बीच में केवल एक व्यक्ति बैठा है। पीला रंग पसंद करने वाले व्यक्ति का मुख, नारंगी रंग पसंद करने वाले व्यक्ति की ओर नहीं है। Tके बाएं बैठे व्यक्तियों की संख्या, Bके दाहिने बैठे व्यक्तियों की संख्या के बराबर है। D, पीला रंग पसंद करने वाले व्यक्ति का निकटतम पड़ोसी है। पीला रंग पसंद करने वाला व्यक्ति पंक्ति के किसी छोर पर नहीं बैठा है। Rऔर S के बीच में केवल एक व्यक्ति बैठा है। दोनो पंक्तियों में, नीला रंग पसंद करने वाले व्यक्ति के बाएं बैठे व्यक्तियों की संख्या एकसमान है। A, Eके बाएं किसी स्थान पर बैठा है जिसका मुख, काला रंग पसंद करने वाले व्यक्ति की ओर है। B और नारंगी रंग पसंद करने वाले व्यक्ति के बीच में दो लोग बैठे है।

निम्नलिखित में से कौन सा/ से कथन असत्य है/ हैं?

I. T का मुख, पीला रंग पसंद करने वाले व्यक्ति के निकटतम पड़ोसी की ओर है।

II. T, B के विकर्णत: विपरीत बैठा है।

III. T, पीला रंग पसंद करने वाले व्यक्ति का निकटतम पड़ोसी है।

A. केवल I
B. II और IIIदोनो
C. केवल II
D. दोनो I और III
E. केवल III

100. उपर्युक्त व्यवस्थापन में निम्नलिखित पांच में से चार किसी निश्चित प्रकार से अपने स्थान के आधार पर एकसमान हैं और वे एक समूह बनाते हैं। इनमें से कौन समूह से संबंध नहीं रखता है?

A. P – गुलाबी
B. T – काला
C. C – नारंगी
D. S – पीला
E. B – पीला

101. निम्नलिखित में से कौन सा संयोजन सत्य है?

A. A – गुलाबी
B. B – काला
C. T – पीला
D. S – गुलाबी
E. उपर्युक्त में से कोई नहीं

102. गुलाबी रंग पसंद करने वाले व्यक्ति के संदर्भ में C का स्थान कौन सा है?

A. दाहिने से तीसरा
B. बाएं से दूसरे व्यक्ति के विपरीत
C. उसकी ओर मुख करके बैठे व्यक्ति का निकटतम पड़ोसी है
D. ठीक बाएं
E. उपर्युक्त में से कोई नहीं

103. D और B के बीच में कितने व्यक्ति बैठे हैं?

A. एक
B. दो
C. एक भी नहीं
D. तीन
E. या तो दो या तीन

104. **निर्देश:** निम्नलिखित जानकारी का ध्यानपूर्वक अध्ययन करें और नीचे दिए गए प्रश्नों के उत्तर दें।

समान परिवार के सात सदस्य B, D, G, L, M, Q और V उत्तर की ओर मुख करके एक सीधी पंक्ति में बैठे हैं। G, अंतिम छोर से तीसरा बैठा है। G की माता, Gके दाहिने से दूसरे स्थान पर बैठी हैं। M, Gकी माता का निकटतम पड़ोसी है। Mऔर B के बीच में दो व्यक्ति बैठे है। G की पत्नी, B के ठीक दाहिने बैठी है। G की पत्नी और D के पिता के बीच केवल एक व्यक्ति बैठा है।

D के बाएं बैठे व्यक्तियों की संख्या, G की पत्नी के दाहिने बैठे व्यक्तियों की संख्या के बराबर है। Qऔर L के बीच में दो व्यक्ति बैठे हैं| M, Bके दादा/नाना हैं। Q, L के बाएं बैठा है। L की पुत्री, L के ठीक दाहिने बैठी है। V, D का इकलौता पुत्र है। B एक पुरूष है।

L के पति के बाएं दूसरा स्थान पर कौन बैठा है?

A. जो व्यक्ति, B के ठीक बाएं बैठा है।
B. D
C. B का पिता
D. जो व्यक्ति, G की माता के बाएं तीसरे स्थान पर बैठा है
E. दिए गए विकल्पों में से कोई नहीं

105. D और उसके भतीजा/भतीजी के ठीक दाहिने स्थान पर बैठे व्यक्ति के बीच में कितने लोग बैठे हैं?

A. दो
B. चार
C. तीन
D. तीन से अधिक
E. निर्धारित नहीं कर सकते

106. यदि D का विवाह J से हुआ है तो J, अपने पुत्र/पुत्री के बाएं दूसरे स्थान पर बैठे व्यक्ति से किस प्रकार संबंधित है?

A. वधू
B. पुत्र
C. भाई
D. पत्नी
E. दामाद

107. M की कितनी पौत्रियां हैं?

A. एक B. दो

C. तीन D. कोई नहीं

E. निर्धारित नहीं कर सकते हैं

108. Q, M के ठीक बाएं बैठे व्यक्ति से किस प्रकार संबंधित है?

A. पत्नी B. पति

C. सिस्टर-इन-लॉ D. माता

E. दिए गए विकल्पों में से कोई नहीं

निर्देश (109-113):दिए गए प्रश्नों का उत्तर देने के लिए निम्नलिखित जानकारी का ध्यानपूर्वक अध्ययन करें। नौ मित्र A, B, C, D, E, F, G, Hऔर I ने एक पिकनिक पर जाना निर्धारित किया। इनमें से प्रत्येक ने एक अलग रंग जैसे- लाल, नीली, हरी, गुलाबी, पीली, पर्पल, काली, सफेद और नारंगी रंग की टी-शर्ट पहनी हैं लेकिन जरूरी नहीं है कि इसी क्रम में हो। इनमें से प्रत्येक व्यक्ति इन वस्तुओं जैसे- पानी, खाना, चटाई, गेम्स, टोपी, फल, टोकरी, प्लेट और नैपकीन में से कोई एक वस्तु को अपने साथ पिकनिक में लाया है, लेकिन जरूरी नहीं है कि सभी समान क्रम में हों। इनमें से पांच पुरूष और शेष महिलाएं हैं।

E, पिकनिक में खाना लाता है और उसने न तो काली न ही पीले रंग की टी-शर्ट पहनी हुई है। जिसने लाल टी-शर्ट पहनी हैं वह, एक महिला है और चटाई लाती है। कोई भी पुरूष पिकनिक में पानी और टोकरी लेकर नहीं आता है। जो व्यक्ति गेम्स लेकर आता है उसने नारंगी रंग की टी-शर्ट पहनी हुई है। B, I और Gने काले रंग की टी-शर्ट नहीं पहनी है। न तो Aन ही F ने काले अथवा नारंगी की टी-शर्ट पहनी है, दोनो ही पुरूष हैं। काली टी-शर्ट पहनने वाला व्यक्ति फल लेकर आता है। किसी भी महिला ने गुलाबी अथवा पीले रंग की टी-शर्ट नहीं पहनी है। न तो A न ही Fपिकनिक में प्लेट लेकर आते हैं और न ही रहे रंग की टी-शर्ट पहनते हैं। नीले रंग की टी-शर्ट पहनने वाला व्यक्ति न तो पुरूष है न ही वह पिकनिक में पानी अथवा टोकरी लेकर आता है। H एक महिला है लेकिन न तो वह लाल, हरा और सफेद रंग पसंद करती है न ही पिकनिक में पानी लेकर आती है। D, पीले रंग की टी-शर्ट पहनता है। A, पिकनिक में टोपी लेकर नहीं आता है और न ही पर्पल अथवा सफेद रंग की टी-शर्ट पहनता है। I, एक पुरूष है और B, हरा रंग नहीं पसंद करता है।

109. हरे रंग की टी-शर्ट किसने पहनी है?

A. A B. B

C. I D. G

E. H

110. पिकनिक में फल कौन लाता है?

A. जो व्यक्ति पीला रंग पसंद करता है

B. जो व्यक्ति लाल रंग पसंद करता है

C. जो व्यक्ति गुलाबी रंग पसंद करता है

D. जो पर्पल रंग पसंद करता है

E. जो काला रंग पसंद करता है

111. दिया गया कौन सा युग्म सही है?

A. चटाई– काली B. खाना– पर्पल

C. गेम्स– हरा D. प्लेट– पीला

E. नैपकीन–लाल

112. दिए गए जोड़ों में किसमें केवल महिलाएं हैं?

A. H, F B. I, D

C. B, C D. G, E

E. A, B

113. किस व्यक्ति ने लाल रंग की टी-शर्ट पहनी है?

A. A B. B

C. C D. D

E. E

114. यहां पर इस शब्द में अक्षरों के ऐसे कितने जोड़े हैं जिसे अंग्रेजी वर्णमाला के अनुसार **PRODUCTION** शब्द के प्रत्येक स्वर को अगले अक्षर से बदल कर बनाया गया है और प्रत्येक व्यंजन को पिछले अक्षर से बदल कर बनाया गया है, प्रत्येक में शब्दों के मध्य अक्षरों की संख्या उतनी ही है जितनी अंग्रेजी वर्णमाला में उनके बीच होती है?

A. तीन B. चार

C. कोई नहीं D. एक

E. दो

115. यदि संख्या 8463247 में प्रत्येक विषम अंक को '1' से बढ़ा दिया जाए और प्रत्येक सम संख्या को '1' से कम कर दिया जाए तो निम्नलिखित में से कौन संख्या के अंको का योग होगा?

A. 32 B. 31

C. 28 D. 29

E. 30

116. **निर्देश:** एक प्रश्न और दो कथनों जिन्हें संख्या I और II द्वारा नामित किया गया है। आपको निर्णय लेना हैं कि इन कथनों में प्रदान किए गए आंकड़े प्रश्न का उत्तर देने के लिए पर्याप्त है या नहीं। इस पर आधारित विकल्पों में से अपने उत्तर का चयन करें।

आठ व्यक्ति A, B, C, D, E, F, G और H एक आठ मंजिला इमारत में रह रहे हैं। सबसे नीचे वाली मंजिल को संख्या 1अंकित किया गया है और सबसे ऊपर वाली मंजिल को संख्या 8अंकित किया गया है। निम्न में से कौन शीर्ष मंजिल पर रहता है?

I. A एक सम संख्या वाली मंजिल पर रहता है लेकिन शीर्ष मंजिल पर नहीं रहता है। A और H के बीच तीन मंजिल हैं। H के ऊपर व्यक्तियों की संख्या, E के नीचे व्यक्तियों की संख्या के समान है। C, E के तुरंत ऊपर रहता है परन्तु शीर्ष मंजिल पर नहीं रहता है।

II. A और D के बीच दो मंजिल हैं। D और F के बीच एक मंजिल है। G, E से दो मंजिल ऊपर रहता है। A, G के तुरंत ऊपर रहता है।

A. यदि अकेले कथन I में दिए गए आंकड़े प्रश्न का उत्तर देने के लिए पर्याप्त हैं, जबकि केवल कथन II में दिए गए आंकड़े प्रश्न का उत्तर देने के लिए पर्याप्त नहीं हैं।

B. यदि केवल कथन II में दिए गए आंकड़े प्रश्न का उत्तर देने के लिए पर्याप्त हैं, जबकि केवल कथन I में दिए गए आंकड़े प्रश्न का उत्तर देने के लिए पर्याप्त नहीं हैं।

C. यदि या तो केवल कथन I या कथन II में दिए गए आंकड़े प्रश्न का उत्तर देने के लिए पर्याप्त हैं।

D. यदि दोनों कथन I और II एक-साथ प्रश्न का उत्तर देने के लिए पर्याप्त नहीं हैं।

E. यदि दोनों कथन I और II एक-साथ प्रश्न का उत्तर देने के लिए आवश्यक हैं।

117. **निर्देश**: दिए गए प्रश्न में एक प्रश्न और दो कथन । और ।। समाहित हैं। आपको यह निर्धारित करना है कि किस कथन में दी गई जानकारी प्रश्न का उत्तर देने के लिए पर्याप्त है कि नहीं है। इन पर आधारित विकल्पों में से अपने उत्तर का चयन करें।

सात व्यक्ति P, Q, R, S, T, U तथा V एक ही परिवार से संबंधित हैं। यह तीन पीढ़ी का परिवार है और परिवार में दो विवाहित जोड़े हैं। U, V से किस प्रकार संबंधित है?

I. T, U का भाई है और S का बेटा है। S, R की सास है तथा V की दादी है। R का विवाह U से नहीं हुआ है।

II. U, S की बेटी है और Q की बहन है। T, P का बेटा है और R का साला है। R, V के पिता हैं। R का विवाह U से नहीं हुआ है।

A. कथन I में दिया गया डेटा अकेले प्रश्न का उत्तर देने के लिए पर्याप्त है, जबकि कथन II में दिया गया डेटा अकेले प्रश्न का उत्तर देने के लिए पर्याप्त नहीं है।

B. कथन II में दिया गया डेटा अकेले प्रश्न का उत्तर देने के लिए पर्याप्त है, जबकि कथन I में दिया गया डेटा अकेले प्रश्न का उत्तर देने के लिए पर्याप्त नहीं है।

C. या तो कथन I में दिया गया डेटा या कथन II में दिया गया डेटा अकेले प्रश्न का उत्तर देने के लिए पर्याप्त है।

D. कथन I तथा कथन II दोनों में दिया गया डेटा एक-साथ प्रश्न का उत्तर देने के लिए पर्याप्त नहीं है।

E. कथन I तथा कथन II दोनों में दिया गया डेटा एक-साथ प्रश्न का उत्तर देने के लिए आवश्यक है।

118. **निर्देश:** दिए गए प्रश्न में एक प्रश्न और दो कथन । और ।। समाहित हैं। आपको यह निर्धारित करना है कि किस कथन में दी गई जानकारी प्रश्न का उत्तर देने के लिए पर्याप्त है कि नहीं है। इन पर आधारित विकल्पों में से अपने उत्तर का चयन करें।

आठ व्यक्ति M, N, O, P, Q, R, S और T एक सीधी रेखा में बैठे हैं। दोनों छोरों पर बैठे व्यक्तियों का मुख दक्षिण की ओर है और शेष का मुख उत्तर की ओर है। निम्न में से कौन बाएं छोर पर बैठा है?

I. M दाएं छोर से तीसरे स्थान पर है। M और S के बीच दो व्यक्ति बैठे हैं। N, T के बाएं से तीसरे स्थान पर है। T, M या S का पड़ोसी नहीं है।

II. P और Q के बीच दो व्यक्ति बैठे हैं। O, Q के दाईं ओर से तीसरे स्थान पर है। M दाएं छोर से तीसरे स्थान पर है।

A. यदि अकेले कथन I में दिए गए आंकड़े प्रश्न का उत्तर देने के लिए पर्याप्त हैं, जबकि केवल कथन II में दिए गए आंकड़े प्रश्न का उत्तर देने के लिए पर्याप्त नहीं हैं।

B. यदि केवल कथन II में दिए गए आंकड़े प्रश्न का उत्तर देने के लिए पर्याप्त हैं, जबकि केवल कथन I में दिए गए आंकड़े प्रश्न का उत्तर देने के लिए पर्याप्त नहीं हैं।

C. यदि या तो केवल कथन I या कथन II में दिए गए आंकड़े प्रश्न का उत्तर देने के लिए पर्याप्त हैं।

D. यदि दोनों कथन I और II एक-साथ प्रश्न का उत्तर देने के लिए पर्याप्त नहीं हैं।

E. यदि दोनों कथन I और II एक-साथ प्रश्न का उत्तर देने के लिए आवश्यक हैं।

119. **निर्देश:** नीचे दिए गए प्रश्नों में से प्रत्येक में एक प्रश्न और उसके नीचे दो कथन I और II दिए गए हैं। आपको निर्णय लेना है कि कथनों में प्रदान किया गया डेटा प्रश्न का उत्तर देने के लिए पर्याप्त है या नहीं। दोनों कथनों को पढ़ें।

6 लोग S, T, U, V, W और X एक वृत्ताकार मेज के चारों ओर केंद्र की ओर मुख करके बैठे हैं। X की T के सापेक्ष क्या स्थिति है?

I. U और W के बीच केवल दो लोग बैठे हैं। X, W की बाईं ओर से दूसरे स्थान पर है। V और T एक-दूसरे के निकटतम पड़ोसी हैं।

II. T, V के निकटतम दाईं ओर है। T और S के बीच केवल दो लोग हैं। X, S का एक निकटतम पड़ोसी है लेकिन V का नहीं।

A. कथन I में दिया गया डेटा अकेले प्रश्न का उत्तर देने के लिए पर्याप्त है, जबकि कथन II में दिया गया डेटा अकेले प्रश्न का उत्तर देने के लिए पर्याप्त नहीं है।

B. कथन II में दिया गया डेटा अकेले प्रश्न का उत्तर देने के लिए पर्याप्त है, जबकि कथन I में दिया गया डेटा अकेले प्रश्न का उत्तर देने के लिए पर्याप्त नहीं है।

C. कथन I में दिया गया डेटा या कथन II में दिया गया डेटा अकेले प्रश्न का उत्तर देने के लिए पर्याप्त है।

D. न तो कथन I में और न ही कथन II में दिया गया डेटा एक-साथ प्रश्न का उत्तर देने के लिए पर्याप्त है।

E. दोनों कथनों I और II में दिया गया डेटा एक-साथ प्रश्न का उत्तर देने के लिए आवश्यक है।

120. **निर्देश:** नीचे दिए गए प्रत्येक प्रश्न में एक प्रश्न और उसके नीचे दो कथन I और II दिए गए हैं। आपको यह तय करना है कि कथनों में दिया गया डाटा प्रश्न का उत्तर देने के लिए पर्याप्त है या नहीं है। दोनों कथनों को पढ़िए और उत्तर दीजिये

यासिर का जन्म किस दिन हुआ था ? (उसकी जन्मतिथि 29 फरवरी है)

I. वह वर्ष 2005और 2011के बीच पैदा हुआ था।

II. 29 फरवरी, 2012 का वह 4 वर्ष की आयु पूरी कर लेगा।

A. केवल कथन I में दिया गया डाटा प्रश्न का उत्तर देने के लिए पर्याप्त है जबकि केवल कथन II में दिया गया डाटा प्रश्न का उत्तर देने के लिए पर्याप्त नहीं है।

B. केवल कथन में II दिया गया डाटा प्रश्न का उत्तर देने के लिए पर्याप्त है जबकि केवल कथन I में दिया गया डाटा पश्न का उत्तर देने के लिए पर्याप्त नहीं है।

C. या तो केवल कथन I या केवल कथन II में दिया गया डाटा प्रश्न का उत्तर देने के लिए पर्याप्त है।

D. कथन I और कथन II दोनों का डाटा मिलाकर भी प्रश्न का उत्तर देने के लिए पर्याप्त नहीं है।

E. कथन I और कथन II दोनों का डाटा मिलाकर प्रश्न का उत्तर देने के लिए आवश्यक है।

Direction (121-130): Read the following passage carefully and answer the questions that follow. Certain words are printed in bold to help you locate them while answering some of these.

For international banks, Asia is becoming an increasingly uncomfortable place. Already facing pressure from regulators in their home countries to conserve capital and stay away from risk; they now have to cope with a newly sophisticated breed of Asian lender. Due to a boom in domestic and cross-border loans, bank advances in the region outside of Japan reached $26 trillion in June, up from $7.8 trillion a decade ago. Chinese banks were the busiest, increasing loans at a compound annual rate of 17 percent to $17.6 trillion. The market share of foreign players has declined significantly.

Some of it has to do with the global financial crisis, which saw banks including HSBC Holdings cut their retail presence and others like Goldman Sachs Group Inc. exit costly minority stakes in local lenders. European institutions retreated the most, with their share of cross-border loans in the region sliding to 22 percent in 2017 from 36 percent in 2007. But Asia's banks have also become a lot stronger, armed with healthy deposits and

access to cheap U.S. dollar funding. That's helped them move beyond **plain vanilla lending** into more complex offerings. Ten years ago in India, for example, foreign banks used to account for 17 percent of pre-provision profits despite having a loan-market share of only 6 percent. Many were stronger in areas such as credit cards and foreign-exchange derivatives. Last year, their loan-market share was 4 percent while their take of pre-provision earnings had fallen to 9 percent, according to Morgan Stanley head of financial research Anil Agarwal.
Asian lenders are also willing to take on more risk at a time their Western counterparts aren't. They can be more generous on interest rates, charge lower upfront fees and offer more attractive **covenants**, according to Brett King, a Hong Kong-based partner at law firm Paul Hastings LLP. Chinese banks are doing leveraged loans for private-equity firms at up to eight times Ebitda; many Western banks are subject to leverage limits of about four times, for a good credit risk. Asian lenders are also more flexible when private equity wants their target to **embark** on another deal soon after the first, or pay dividends, whereas their international counterparts often place limits on acquisitions and shareholder returns until the initial advance is repaid.
Of course, many lenders in the region are state-backed, so they know a **bailout** wouldn't be out of the question. They're also more familiar with local borrowers, so can probably afford to **push the envelope**. Western banks' edge in Asia possesses a global network that clients can tap into. Industrial & Commercial Bank of China Ltd., for example, remains largely China-focused while others are hoping to meet President Xi Jinping's Belt and Road ambitions rather than expand in Europe or the U.S. One risk is that economies in the region sour, or favored clients **hit a rough patch**, as Standard Chartered discovered. Still, the lead that Asian banks have in the loan market is growing. As China accelerates its financial opening, foreign players are right to feel uneasy.
Source – The Washington Post

121. According to the passage, the Asian lenders do not have which of the following advantages?
A. They know the local borrowers, so can probably go beyond the limits.
B. They are flexible to initiate a new deal even before the last one is paid off.
C. They are willing to take more risks and offer better deals to the borrowers.
D. The borrowers always prefer local lenders and abhor their foreign counterparts.
E. Many of them can fall back to financial support from government.

122. Which of the following has assisted Asian banks to move ahead of simple loans and offer more complex loaning services?
A. Their will to take more risks and offer better deals to the borrowers.
B. The ability to provide larger amount of loans in lesser time and paperwork.
C. The vacuum in the Asian market created by the retreat of European banks.
D. The pact by all Asian banks to work together to root out all foreign banks in Asia.
E. Presence of healthy deposits with the bank and availability of cheap U.S. dollars funding.

123. The author is most likely to disagree with which of the following options?
A. International banks are also facing pressure from the regulators of their home countries.
B. Asian banks with cheap funding will soon root out its foreign counterparts in Asia.
C. Western banks often do not begin another deal until the initial advance is paid off.
D. Asian lenders have advantages like government backing and familiarity with the borrowers.
E. European banks have retreated the most from Asian markets.

124. Which of the following options do not carry the same meaning as the phrases – 'push the envelope' and 'hit a rough patch' as mentioned in the passage?
A. Running into rough weather.
B. To extend the limits of something.
C. Trying to bribe a government official.
D. Going through a period of problems.
E. To innovate or go beyond the commonly accepted boundaries.

125. Which of the following is not true about the Asian lenders?
A. They charge lesser processing fees for the loans.
B. They will soon take over the western markets.
C. They can provide loans on comparatively lower interest rates.
D. They have access to low cost U.S. dollar funding.
E. They offer more attractive deals to the borrowers.

126. Which of the following inferences can be made after reading the third paragraph of the passage?
A. In the last decade the Western banks have seen a drastic fall in the market share.
B. The foreign banks have seen a huge fall in profits in India.
C. In the last decade in India, foreign bank's market share has fallen slightly but profits have plunged more significantly.
D. Foreign banks were stronger in areas like credit cards and foreign-exchange derivatives.
E. International banks have lost their market share in Asia even after being stronger than their Asian Counterparts in various areas.

127. Which of the following is not similar in meaning to the word 'covenant'?
A. Contract B. Indenture
C. Truculent D. Deal
E. Bargain

128. Which of the following expresses the contextual meaning of the word 'bailout'?
A. A government backed bank acquiring a foreign bank.
B. Liberty to back out from a contract without any notice.
C. The organization being shut down by the orders of the state.
D. Financial assistance from the government to a failing organization.
E. The owners of the organization getting bailed out of prison.

129. In the context of the passage, the does the word 'plain vanilla lending' mean?
A. Lending of a very meager amount.
B. The type of lending which involves various complications.
C. Lending done to uplift the Ice Cream industry.
D. A basic and simple version of lending.
E. Extremely complex form of lending.

130. Which of the following is opposite in meaning to the word 'embark'?
A. Terminate B. Commence
C. Malapert D. Undertake
E. Initiate

Direction (131-140): In the following passage, there are blanks each of which has been numbered. These numbers correspond to the question numbers; against each question, five words have been suggested, one of which fills the blanks appropriately.

In an age where there's an app for everything and telecommuting should be easy, why do workers still not feel it's **(Q1)**? It begs the question "are your employees **(Q2)** to work remotely?" In a survey of business owners by Virgin Media Business, it was **(Q3)** that 60% of office-based employees will regularly work from home by 2022. A separate survey by Office Angels found a third of employees think **(Q4)** will be unheard of by 2036. By comparison, large companies such as Yahoo are bucking this predicted trend by announcing all of its staff are required to work from the office.

In another survey, conducted by Ricoh UK, only 25% of respondents felt **(Q5)** when working from home. With an abundance of communication, **(Q6)** and cloud storage apps and solutions available to businesses and individuals alike, could it be factors other than the tools available to employees that are affecting this view? Do we put too much emphasis on whether the tools businesses use allow employees to be effective outside of the office? Maybe it's employees themselves who prevent telecommuting from being a viable option.

Until recently, working from home wasn't the norm in most businesses. Technological **(Q7)** meant that quite often employees simply weren't as productive working from home, regardless of their **(Q8)**. In a mobile world, we carry our office with us. Business leaders are embracing this shift in culture and **(Q9)** research and investment into the industry. As ever more clever technology is developed, employees and brands benefit from faster and more productive ways of **(Q10)** working.

131. Find the appropriate word in each case.
A. Prudential B. Beneficial
C. Empirical D. Purposeless
E. Pleasant
132. Find the appropriate word in each case.
A. Cut through B. Cut off
C. Cut out D. Cut in
E. Cut at
133. Find the appropriate word in each case.
A. Exempted B. Predicted
C. Debated D. Obliviated
E. Discussed
134. Find the appropriate word in each case.
A. Commuting B. Communicating
C. Recreation D. Professionalism
E. Travelling
135. Find the appropriate word in each case.
A. Perilous B. Unproductive
C. Futile D. Productive
E. Absent
136. Find the appropriate word in each case.
A. Collaborative B. Restoring
C. Piquant D. Dissociative
E. Degenerating
137. Find the appropriate word in each case.
A. Reservations B. Regeneration
C. Restrictions D. Resilience
E. wrote
138. Find the appropriate word in each case.
A. Apprehensions B. Intentions
C. Involvement D. Distance
E. Reciprocations
139. Find the appropriate word in each case.
A. Allowing B. Fuelling
C. Abnegating D. Restraining
E. Facilitation
140. Find the appropriate word in each case.
A. Disparate B. Stagnant
C. Homogenous D. Creative
E. Conditional
141. **Direction:** Out of the five statements given below, only one is grammatically correct. Choose the correct statement as your answer.
A. They were dejected, sure, but it wasn't the time to show it because their fans in the stadiums have been crying and the team had to give back the love and warmth, it had been receiving throughout the tournament.
B. The supporters waved flags of both countries for defeating Germany in this crucial game outside the Korean embassy in Mexico and thanking them.
C. During a player is forged with grit, passion and undying will, an entire generation watches when he spreads his wings to fly.
D. As a girl passionate about sports, it is unfathomable to me that a group of women wouldn't be allowed inside the stadiums just because of their gender.
E. Senegal is playing only its second World Cup in their history and which meant for them was evident by the way their manager Aliou Cissé broke down in the tears, following prayers with his team, a few days ago.
142. **Direction:** Given below are five statements out of which only one is grammatically correct. Identify the correct statement.
A. Not to far from the realms of the Thar desert, its shape-shifting sand dunes, mighty forts and palaces, the Kalbeliya dancers and scorching heat, there lies a city with lush green forests, pleasant weather and plenty of flora or fauna
B. Achalgarh fort was built by Maharana Kumbha, the ruler of Mewar, who built a total of 32 forts in Rajasthan throughout his reign.
C. Krem Puri Cave is an incredibly complex maze of hundred of short passages and long stretches of corridors which are interconnected in a big network.
D. The Shyok River meets the Nubra or Siachan River to form the beautiful Nubra valley separates the Ladakh and Karakoram mountain ranges.
E. The Bhimbekta caves were discovered quite recently in 1957 and were declared a UNESCO World Heritage Site only in 2003
143. **Direction:** Out of the five statements given below, only one is grammatically correct. Choose the correct statement as your answer.
A. After Finance Minister Arun Jaitley announced that GST rates on restaurants are going to be slashed down, consumers everywhere have breathed a sigh of relief.
B. The government has presented the Union Budget today and just like every year, people don't seem to be very impressed.
C. However, it was Sinha's biting assessment of finance minister Arun Jaitley, who he held responsible for making a "mess" of the Indian economy which sent shock waves in the BJP.
D. Terrorists in the Kashmir Valley are now in the run and they cannot continue to terrorise the people for decades, defence minister Arun Jaitley said on Sunday, which maintaining that the government's priority was to clean up the Kashmir Valley of armed militants.
E. India is considering selling state-owned Air

India in parts to making it attractive to potential buyers, because it reviews options to divest the loss-making flagship carrier, several government officials familiar with the situation said.

144. **Direction:** Out of the five statements given below, only one is grammatically correct. Choose the correct statement as your answer.
A. Being a pilot is one of the most demanding professions considering the erratic working hours and the physical exhaustion that comes after long flights.
B. Air India's largest employees' union would hold its general body meeting coming Friday to "organise its members for a movement" against the government's decision to privatise the debt-ridden national carrier.
C. An international airport the government announced on Saturday about with a capacity to handle 30-50 million passengers per year would come up at Jewar in Greater Noida in the next five to six years to ease the load on the Delhi airport.
D. The government has recommended three levels of unruly behaviour, every with a corresponding duration of flying ban of 3 months, 6 months and two years or more without limit.
E. Qatar, that is home to alomost 7 lakh Indians, is now facing an air-way crisis following few middle-eastern countries banned the use of their airspace for flights to and from Doha for Qatar operators, earlier this month.

145. **Direction:** Out of the five statements given below, only one is grammatically correct. Choose the correct statement as your answer.
A. Being dabbled in acting in the past for smaller advertisement projects for Nerolac Paints and Kumaran Silks among a few other local ads directed towards the Southern audience, Shanta and V.P. Dhanajayan are strangers to the thespian world.
B. Born on February 29, 1904 in a Brahmin family in Madurai, Rukmini Devi was considered to the most important revivalist in the Indian classical dance form.
C. Classical danseuse and United Nations Goodwill Ambassador, Aishwarya R Dhanush, will give a Bharatanatyam performance at the UN on International Women's Day.
D. In 1943, the Nazis did make the child artists and other musicians at Terezín, hold a performance of Burundin, the children's opera for a delegation from the International Committee of the Red Cross to see the performance in the camp, as a demonstration of how the Nazis were protecting culture and encouraged it.
E. Indian Institute of Technology, Bhubaneswar become the first IIT in the country to introduce Odissi as a part of the curriculum for B.Tech students.

146. **Direction:** In each question, a sentence with four words printed in bold is given. These are numbered as (A), (B), (C) and (D). One of the four words printed in bold may either be misspelt or inappropriate in the context of the sentence. Find out the word which is wrongly spelt or inappropriate. The number of that word is your answer. If all the words printed in bold are correctly spelt and also appropriate in the context of the sentence, mark (5), i.e., 'All are correct', as your answer.
The **completion** of (A)/ the **tunnel** has (B)/ been **held** up (C)/ **owning** to a strike (D).
A. A B. B
C. C D. D
E. All are correct

147. **Direction:** In each question below, four words printed in bold type are given. These are numbered (1), (2), (3) and (4). One of these words printed in bold may either be wrongly spelt or inappropriate in the context of the sentence. Find out the word that is inappropriate or wrongly spelt, if any. The number of that word is your answer. If all the words printed in bold are correctly spelt and appropriate in the context of the sentence then mark (5) i.e. 'All Correct', as your answer.
The more **scarce** (1)/ any **collecteble** (2)/ item is, the **higher** (3)/ the **price** (4)/ tends to be. All correct (5)
A. 1 B. 2
C. 3 D. 4
E. 5

148. **Direction:** In each question below, four words printed in bold are given. These are numbered (1), (2), (3) and (4). One of these words printed in bold may either be wrongly spelt or inappropriate in the context of the sentence. Find out the word that is inappropriate or wrongly spelt, if any. The number of that word is your answer. If all the words printed in bold are correctly spelt and appropriate in the context of the sentence

then mark (5) i.e. 'All Correct', as your answer.
It freed me to **enter** (1) one of the **most** (2) **creatively** (3) **periods** of (4) my life. All correct (5)
A. 1 B. 2
C. 3 D. 4
E. 5

149. **Direction:** In each question below, four words printed in bold type are given. These are numbered (A), (B), (C) and (D). One of these words printed in bold may either be wrongly spelt or inappropriate in the context of the sentence. Find out the word that is inappropriate or wrongly spelt, if any. The number of that word is your answer. If all the words printed in bold are correctly spelt and appropriate in the context of the sentence, then mark E. i.e. 'All correct" as your answer.
Despite (A)/ the **obviously** (B)/ **advantages**, (C)/ is it really **worth-while** to invest in the device? (D). / No error (E)
A. A B. B
C. C D. D
E. No error

150. **Direction:** In each question, a sentence with four words printed in bold is given. These are numbered as (1), (2), (3) and (4). One of these four words printed in bold may either be misspelt or inappropriate in the context of the sentence. Find out the word which is wrongly spelt or inappropriate, if any. The number of that word is your answer. If all the words printed in bold are correctly spelt and also appropriate in the context of the sentence, mark (5), ie 'All Correct', as your answer.
The teacher liked the **poem** (1)/so much that she **asked** (2)/ Saba to read it **allowed** (3)/ to the **whole** class. (4)/ All correct(5)
A. 1 B. 2
C. 3 D. 4
E. 5

151. **Direction**: In the following question, a sentence with a part of it missing and represented by a blank is given. Select the best out of the four answer choices given, to make the sentence complete and coherent (coherent means logically complete and sound). If none of the sentences is appropriate, mark (E) i.e., 'None of these' as the answer.
In his first trip to Rajasthan as head of the nation, President Ram Nath Kovind formally launched _____.
A. With part of the crew, but managed to make his way to Timor in the Malay Archipelago.
B. The bull of deposition, and Pole again was sent to urge Charles V.
C. Three schemes of the state government at Birla Auditorium on Sunday.
D. A new career as a singer.
E. None of these

152. **Direction**: In the following question, a sentence with a part of it missing and represented by a blank is given. Select the best out of the four answer choices given, to make the sentence complete and coherent (coherent means logically complete and sound). If none of the sentences is appropriate, mark (E) i.e., 'None of these' as the answer.
A Tuesday storm that prompted tornado and thunderstorm warnings around Connecticut _____.
A. Has knocked out power for thousands of residents.
B. Has made the government take strict action against it.
C. Blasted photos of black sky and morning waves.
D. Drops still continued to fall, but vertically now.
E. None of these

153. **Direction**: In the following question, a sentence with a part of it missing and represented by a blank is given. Select the best out of the four answer choices given, to make the sentence complete and coherent (coherent means logically complete and sound). If none of the sentences is appropriate, mark (E) i.e., 'None of these' as the answer.
Iran's foreign minister has been touring world capitals to try _____.
A. Built good relation and strike a peace deal.
B. And save the 2015 Iran nuclear deal after the US' withdrawal.
C. Solving the mysteries of Mother Nature.
D. Have different cuisine around the globe.
E. None of these

154. **Direction**: In the following question, a sentence with a part of it missing and represented by a blank is given. Select the best out of the four answer choices given, to make the sentence complete and coherent (coherent means logically complete and

sound). If none of the sentences is appropriate, mark (E) i.e., 'None of these' as the answer.

At least 15 people are missing after a boat _____.

A. Capsized in the southern Indian state of Andhra Pradesh.
B. Flown with the waves in the east coast.
C. Ruled out all the possibilities of survival.
D. Drowning seen by many people at the east coast.
E. None of these

155. **Direction:** In the following question, a sentence with a part of it missing and represented by a blank is given. Select the best out of the five answer choices given, to make the sentence complete and coherent (coherent means logically complete and sound).

Think of life in the north-eastern part of the country, marked with the presence of big rivers, _____.

A. The air travel today is the fastest, most comfortable and prestigious mode of transport.
B. The air transport was nationalized in 1953.
C. Air travel is not within the reach of the commom people.
D. Dissected relief, dense forests and frequent floods and international frontiers, in the absence of air transport.
E. None of these

156. **Direction:** In the given question, a statement divided into different segments is given. The first segment is fixed, rearrange the other segments to form a coherent statement. If the sentence is already arranged or the correct sequence doesn't match any of the given sequence, mark (e).i.e. "None of the above" as your answer.

By learning basic plant anatomy/ but also knowing where in the field guide to look for them (P)/ telling species apart, (Q)/ proficient not only at (R)/ one can soon become (S)

A. SRQP B. QSRP
C. PSRQ D. PQSR
E. None of the above

157. **Direction:** In the given question, a statement divided into different segments is given. The first segment is fixed, rearrange the other segments to form a coherent statement. If the sentence is already arranged or the correct sequence doesn't match any of the given sequence, mark (e).i.e. "None of the above" as your answer.

Educational testing indicates that children/ have recognition vocabularies (P)/ of over twenty thousand words (Q)/ in which English is the native language (R)/ who have grown up in families. (S)

A. PRSQ B. SQRP
C. SRPQ D. PRQS
E. None of the above

158. **Direction:** In the given question, a statement divided into different segments is given. The first segment is fixed, rearrange the other segments to form a coherent statement. If the sentence is already arranged or the correct sequence doesn't match any of the given sequence, mark (e).i.e. "None of the above" as your answer.

Miss Nelson who teaches Maths/ to middle school children (P)/ had won a poetry competition (Q)/ in St. George School (R)/ which was held this July (S)

A. RSPQ B. PRQS
C. QRSP D. QPSR
E. None of the above

159. **Direction:** In the given question, a statement divided into different segments is given. The first segment is fixed, rearrange the other segments to form a coherent statement. If the sentence is already arranged or the correct sequence doesn't match any of the given sequence, mark (e).i.e. "None of the above" as your answer.

At first glance/ friendly when approached (P)/ at her phone, almost as if she (Q)/ wants to avoid the crowd but (R)/ she seems reticent, staring down (S)

A. SRPQ B. SQRP
C. QPSR D. RSPQ
E. None of the above

160. Rearrange the parts of the sentence in the correct order.

People with borderline personality disorder
P. trust issues, emotional dysregulation
Q. typically have anxiety, depression
R. and narcissism, all of which
S. make life very difficult

A. QSRP B. QPRS
C. SRPQ D. SPRQ
E. None of the above

161. सर्वर्स (Serves) से तात्पर्य उन कम्प्यूटरों से है जो _____ से जुडे अन्य कम्प्यूटरों को रिसोर्स प्रोवाइड करता है।
A. नेटवर्क B. मेनफ्रेम
C. सुपरकम्प्यूटर D. क्लाइंट
E. पोर्ट

162. EDI क्या है?
A. Electronic distant interface
B. Electronic development interface
C. Electronic data interface
D. Electronic data interchange
E. इनमें से कोई नहीं

163. एमएस-एक्सेल में, सभी फार्मूला के चिह्न के साथ शुरू होते हैं |
A. # B. @
C. = D. +
E. इनमें से कोई नहीं

164. प्रिंटर कहाँ से जुड़ा हुआ होता है?
A. सीरियल पोर्ट B. समानांतर बंदरगाह
C. एस सी एस आई D. इंटरफेस बंदरगाह
E. इनमें से कोई नहीं

165. ईबीसीडीआईसी में एक करैक्टर _____ द्वारा दर्शाया गया है।
A. एक बिट B. चार बिट्स
C. आठ बिट्स D. सोलह बिट्स
E. इनमें से कोई नहीं

166. आमतौर पर____के विरुद्ध बचाव के लिए फ़ायरवॉल का प्रयोग किया जाता है|
A. फायर अटैक B. डाटा ड्रिवेन अटैक्स
C. वायरस अटैक्स D. अनाधिक्रत उपयोग
E. इनमें से कोई नहीं

167. कौन सी कुंजी का इस्तेमाल दूसरी कुंजी के साथ एक विशिष्ट कार्य करने के लिए किया जाता है?
A. फंक्शन B. कंट्रोल
C. ऐरो D. स्पेस बार
E. इनमें से कोई नहीं

168. वेब साइट के मुख्य पेज को कहा जाता है _____.
A. होम पेज B. ब्राउज़र पेज
C. सर्च पेज D. इंडेक्स पेज
E. इनमे से कोई नहीं

169. नेटवर्क, जिसमें प्रत्येक नोड को बिल्कुल दो अन्य नोड्स से जुड़ता है, _____ कहा जाता है।
A. बस नेटवर्क टोपोलॉजी
B. स्टार नेटवर्क टोपोलॉजी
C. रिंग नेटवर्क टोपोलॉजी
D. उपरोक्त सभी E. इनमें से कोई नहीं

170. रेखांकित टेक्स्ट, टेक्स्ट और फोल्डर के नाम के रूप में भेजा जाता है ___.
A. हाइपरलिंक B. मेनू
C. सोर्स ड्राइव D. रिसोर्स लोकेटर
E. इनमें से कोई नहीं

171. डिजिटल प्रणाली में सबसे छोटी इकाई को क्या कहते हैं?
A. बाइट B. किलो बाइट
C. शब्द D. लिपि
E. बिट

172. कौन सा बार आम तौर पर टाइटल बार जोकि श्रेणीबद्ध का विकल्प प्रदान करता है उसके नीचे दिया जाता है?
A. मेनू बार B. स्टेटस बार
C. टूलबार D. स्क्रॉल बार
E. उपरोक्त में से कोई नहीं

173. पोर्ट्रेट और लैंडस्केप हैं|
A. पृष्ठ ओरिएंटेशन B. पृष्ठ आकार
C. पृष्ठ लेआउट D. सी तथा डी दोनों
E. उपर्युक्त सभी

174. _____ अनधिकृत प्रति और सॉफ्टवेर के वितरण का उल्लेख करता है .
A. हैकिंग B. सॉफ्टवेयर पायरेसी
C. सॉफ्टवेयर लिटरेसी D. क्रेककिंग
E. कॉपीराइट

175. सॉफ्टवेयर के एक प्रकार जो तकनीकी विस्तृत सूचना के अधिकांश भाग का प्रबन्ध करने के लिए अंतिम-उपयोगकर्ताओं, एप्लीकेशन सॉफ्टवेयर, और कंप्यूटर हार्डवेयर के साथ काम करता है :
A. कम्युनिकेशन्स सॉफ्टवेयर
B. एप्लीकेशन सॉफ्टवेयर
C. यूटिलिटी सॉफ्टवेयर
D. सिस्टम सॉफ्टवेयर
E. इनमे से कोई नहीं

176. कर्सर के बाईं ओर से वर्णों को मिटाने के लिए निम्न में से कौन सी कुंजी का इस्तेमाल किया जाता है?
A. आल्ट + डिलीट B. शिफ्ट
C. एस्केप D. डिलीट
E. बैकस्पेस

177. एक वेब साइट एक संग्रह _____ है।
A. ग्राफिक्स B. प्रोग्राम्स
C. एल्गोरिदम D. वेब पेज
E. चार्ट

178. जब कम्प्यूटर ऑन हो, तो बूटिंग प्रक्रिया _____ करती है।
A. इंटिग्रिटी टेस्ट B. पावर-ऑन सेल्फ-टेस्ट
C. करेक्ट फंक्शनिंग टेस्ट D. रिलायबिलिटी टेस्ट
E. शट-डाउन

179. 'यूज़र इंटरफेस' शब्द _____ को दर्शाता है।
A. उपयोगकर्ता स्क्रीन पर क्या देखता है और वे इसके साथ कैसे बातचीत कर सकते हैं।
B. ऑपरेटिंग सिस्टम उपयोगकर्ता आदेशों का कैसे जवाब देता है।
C. एक साधन जिसके द्वारा उपयोगकर्ता कंप्यूटर के परिधीय उपकरणों (पेरीफेरल डिवाइसेस) के साथ सूचना का आदान प्रदान करता है।
D. एक मॉनिटर जो कंप्यूटर के लिए उपलब्ध है।
E. इनमें से कोई नहीं

180. टास्क मैनेजर को लॉन्च करने के लिए कौन सी शॉर्टकट कुंजी का इस्तेमाल किया जाता है।
A. Alt+ F4 B. Ctrl+ F4
C. Ctrl+ Alt+ Del D. Alt+ Del
E. इनमें से कोई नहीं

181.कौन-सा प्रोटोकॉल भिन्न होस्ट्स के बेच ई-मेलकी सुविधा प्रदान करता है ?
A. FTP B. SMTP
C. TELNET D. SNMP
E. इनमें से कोई नहीं

182. LAN किसका लघु रूप है?
A. लोकल एरिया नोड्स
B. लार्ज एरिया नेटवर्क
C. लार्ज एरिया नोड्स
D. लोकल एरिया नेटवर्क

183. ग्लोबल मैक्रो शीट में संग्रहित मेक्रोस को उपयोग करते है
A. केवल वर्तमान दस्तावेज में
B. कोई भी दस्तावेज में
C. केवल ग्लोबल शीट के अन्य मैक्रो के साथ
D. उपरोक्त में से कोई नहीं
E. उपरोक्त सभी

184. उच्चतम विश्वसनीयता (highest reliability) के साथ टोपोलॉजी को कहा जाता है ।
A. बस टोपोलॉजी B. स्टार टोपोलॉजी
C. रिंग टोपोलॉजी D. मेश टोपोलॉजी
E. इनमें से कोई नहीं

185. निम्न में से कौन सा ब्रॉडबैंड इंटरनेट कनेक्शन का एक प्रकार नहीं है?
A. केबल B. डीएसएल
C. डायल-अप D. सैटेलाइट
E. इनमे से कोई नहीं।

186. नेटवर्क पर एक कम्प्यूटर जो अन्य कम्प्यूटर द्वारा उपलब्ध करवाए गए संसाधनों का उपयोग करता है, को कहते हैं।
A. सर्वर B. कम्प्यूटर
C. ब्रूअर (Brewers)
D. बेटा टेस्ट तथा बेकेर कॉल (Beta test & Beker call)
E. इनमें से कोई नहीं

187. HTTP कक पूर्ण रूप क्या है ?
A. हाइपर टेक्स्ट ट्रांसफर प्रोटोकॉल
B. हाइपर टेक्स्ट Transition प्रोटोकॉ
C. हाइपर टेक्स्ट ट्रांसफर प्रोग्राम
D. हाइपर टेक्स्ट ट्रांजीशन प्रोग्राम
E. हाइपर टेक्स्ट ट्रीवियल प्रोटोकॉ

188. किसी दस्तावेज में हेडर्स और फूटर का प्रयोग क्यो होता है?
A. दस्तावेज को बेहतर तरीके से प्रदर्शित करने के लिए
B. पेज के प्रारंभ और अंतिम रेखा को स्पष्ट करने के लिए
C. बड़े दस्तावेजों को सरलता से पढ़ सकने योग्य बनाने के लिए
D. प्रिंट करने पर हेडर्स और फूटर को दस्तावेज पर दिखाने के लिए
E. इनमें से कोई नहीं

189. निम्न में से कौन सी शॉर्टकट कुंजी का उपयोग स्पेलिंग (वर्तनी) जांच के लिए किया जाता है?
A. F1 B. F2
C. F7 D. F9
E. इनमें से कोई नहीं

190. सिस्टम सॉफ्टवेयर का कौन सा हिस्सा हमेशा मुख्य स्मृति में रहता है?
A. पाठ संपादक B. असेंबलर
C. लिंकर D. लोडर
E. इनमे से कोई नहीं।

191. इनमें से एक वेब ब्राउज़र नहीं है?
A. मोज़ेक B. क्रोम
C. फेसबुक D. नेटस्केप नेविगेटर
E. इनमें से कोई नहीं

192. _____ तब होता है जब कम्प्यूटर चालू है और ऑपरेटिंग सिस्टम लोड हो रहा हो।
A. बूटिंग B. स्पूफिंग
C. फोर्मेटिंग D. इनिशीऐटिंग
E. लोडिंग

193. ब्रॉडबैंड, इंटरनेट जोड को शेयरिंग के अनुमति ----- में होता हैं
A. हब B. अडॅप्टर
C. राइटर D. स्वीच
E. प्लग

194. किसी दस्तावेज में हेडर्स और फूटर का प्रयोग क्यो होता है?
A. दस्तावेज को बेहतर तरीके से प्रदर्शित करने के लिए
B. पेज के प्रारंभ और अंतिम रेखा को स्पष्ट करने के लिए
C. बड़े दस्तावेजों को सरलता से पढ़ सकने योग्य बनाने के लिए
D. प्रिंट करने पर हेडर्स और फूटर को दस्तावेज पर दिखाने के लिए
E. इनमें से कोई नहीं

195. एसएमपीएस (SMPS) का पूर्ण रूप क्या है।
A. स्वीच्ड मोड पावर सप्लाई (Switched Mode Power Supply)
B. स्टार्ट मोड पावर सप्लाई (Start Mode Power Supply)
C. स्टोर मोड पावर सप्लाई (Store Mode Power Supply)
D. सिंगल मोड पावर सप्लाई (Single Mode Power Supply)
E. इनमें से कोई नहीं

196. इलेक्ट्रॉनिक निधि स्थानांतरण ..... पैसे का आदान-प्रदान है।
A. एक जगह से दूसरी जगह करना
B. एक खाते से दूसरे खाते में करना
C. एक बैंक से दूसरे बैंक में करना
D. उपरोक्त सभी
E. इनमे से कोई नहीं

197. जनरल-परपज एप्लिकेशनों और स्पेशल परपज एप्लिकेशनों को एड्रेस करने के लिए विशेष रूप से डिजाइन किए प्रोग्रामों को ..... कहते हैं।
A. ऑपरेटिंग सिस्टम B. सिस्टम सॉफ्टवेयर
C. एप्लिकेशन सॉफ्टवेयर D. प्रबंधन सूचना प्रणाली
E. इनमें से कोई नहीं

198. निम्न में से कम्प्यूटर सिस्टम के प्रयोग को रोकने के लिए किस टूल का प्रयोग किया जाता है?
A. यूजर लागइन
B. पासवर्ड
C. कम्प्यूटर कुंजी
D. प्रयोग नियन्त्रित करने वाले साफ्टवेयर
E. इनमें से कोई नहीं

199. एक्सेल में CTRL+9 प्रेसिंग है
A. प्रिन्टस 9
B. प्रिन्ट्स
C. प्रिन्टस 9 का स्पेसेज द्वारा पालन
D. करेण्ट लोकेशन पर 9 सेलों को इन्सर्ट करना
E. करेण्ट रो को छिपाना

***

gradeup

IBPS RRB Officer Scale I Combo 2019

ऑनलाइन टेस्ट सीरीज़

1. नवीनतम परीक्षा पैटर्न पर आधारित
2. हिंदी तथा इंग्लिश में उपलब्ध
3. ऑल इंडिया रैंक और प्रदर्शन विश्लेषण
4. समाधान की विस्तृत विवरण
5. वेब और मोबाइल पर उपलब्ध

GET IT ON Google Play

www.gradeup.co